Ada Köprüleri

Anaokulu | 2026-11-20 | Etkinlik

Bu yönergeyi bir yetişkin sesli okuyabilir. Daireler adalardır. Adaların arasına yatay ya da dikey düz köprüler çiz. Her adada, üstündeki sayı kadar köprü olmalı. Köprüler birbirini kesmez.

Dört ile altı adalı iki harita. Her köprü için bir çizgi çiz.

1

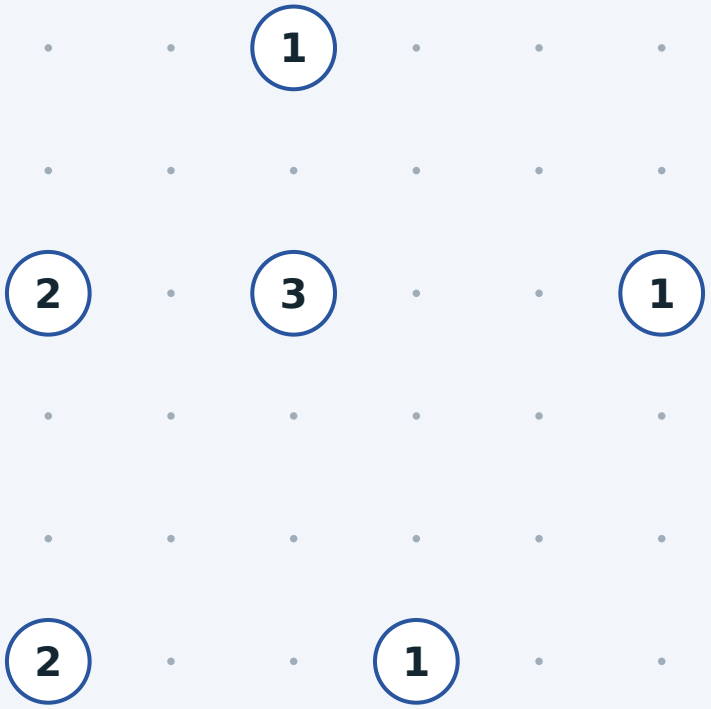

2

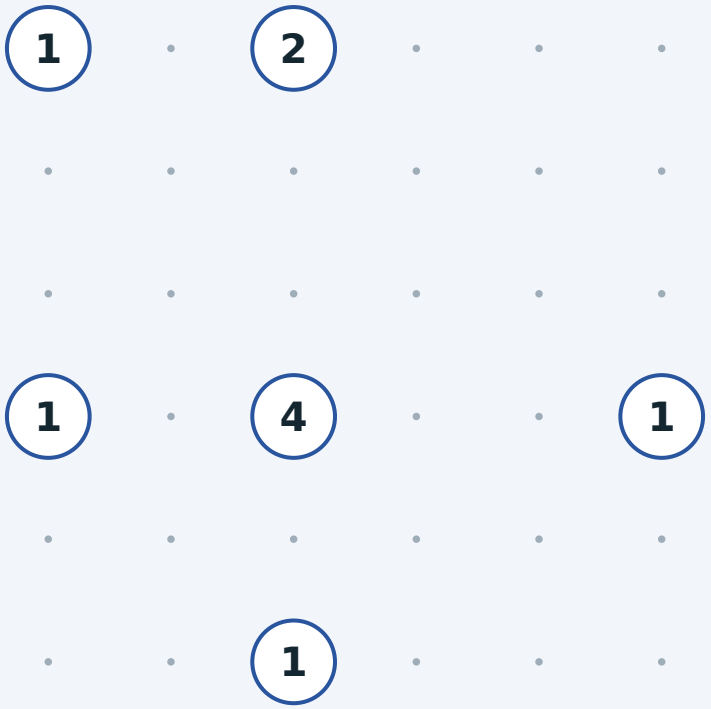

Ada Köprüleri

Anaokulu | 2026-11-20 | Cevap anahtarı

Cevap anahtarı: köprüler turuncu çizildi. Çift köprü iki çizgidir.

1

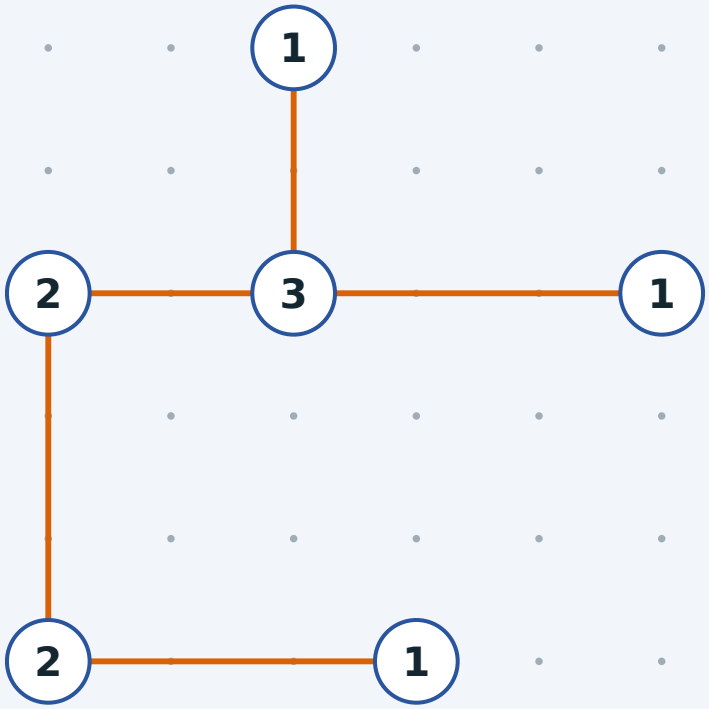

2

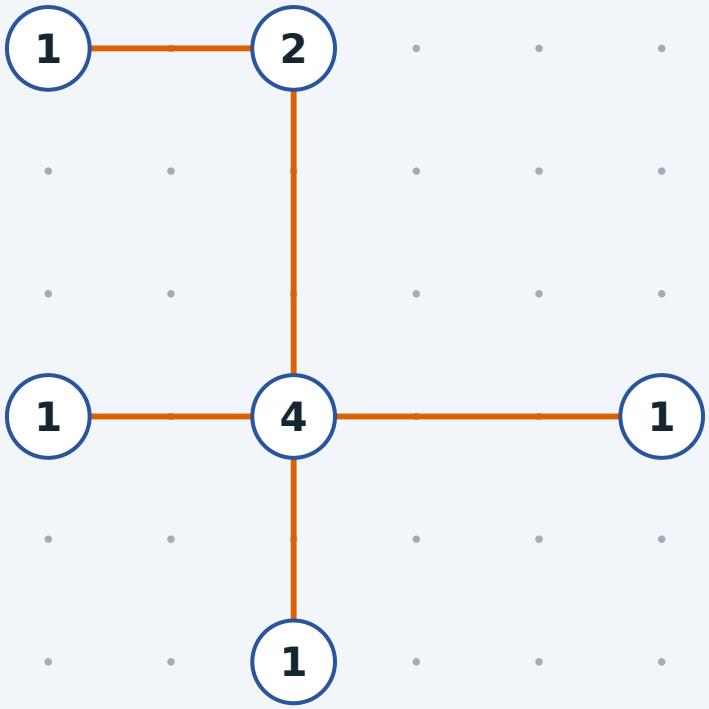

Ada Köprüleri

1. Sınıf | 2026-11-20 | Etkinlik

Adaları yatay ya da dikey düz köprülerle birleştir. Adanın üstündeki sayı, o adaya kaç köprü değdiğini gösterir. İki ada arasında yalnızca bir köprü olabilir; köprüler birbirini kesmez ve bir adanın üstünden geçmez.

Altı ya da yedi ada. Köprüleri tek bir şekilde çizilebilen adadan başla.

1

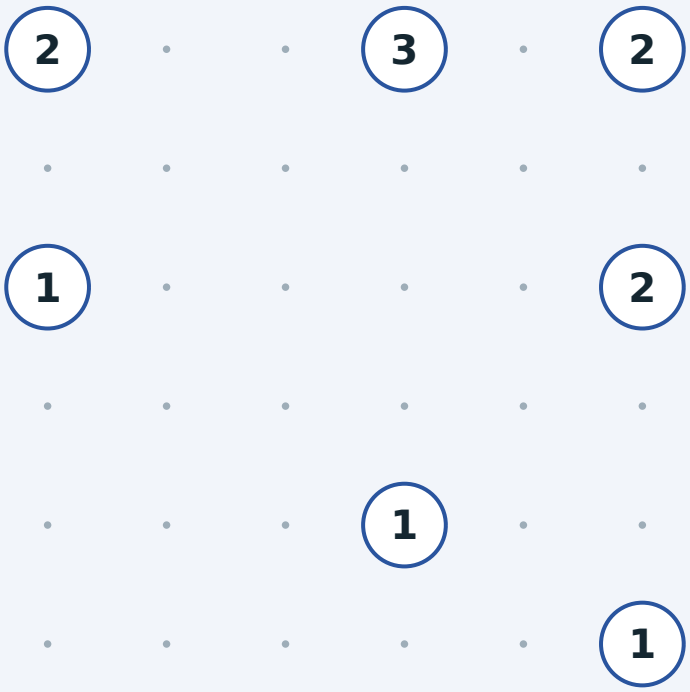

2



Ada Köprüleri

1. Sınıf | 2026-11-20 | Cevap anahtarı

Cevap anahtarı: köprüler turuncu çizildi. Çift köprü iki çizgidir.

1

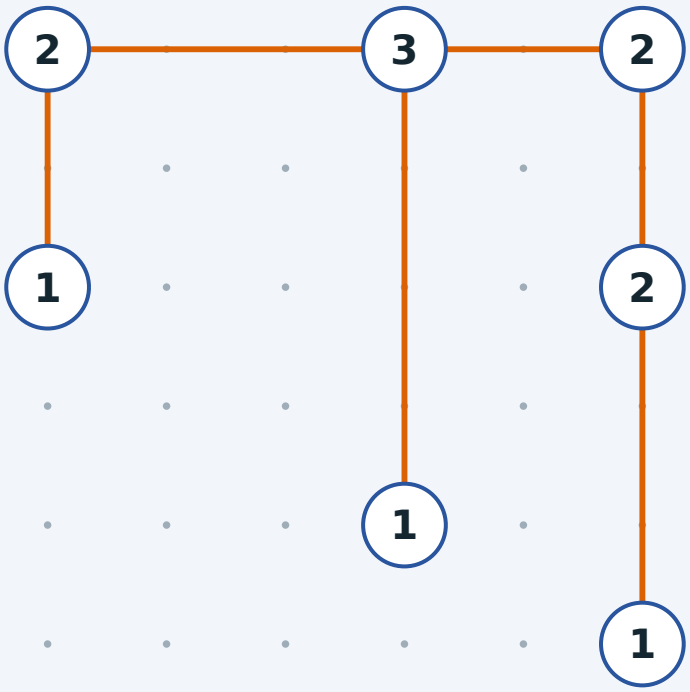

2

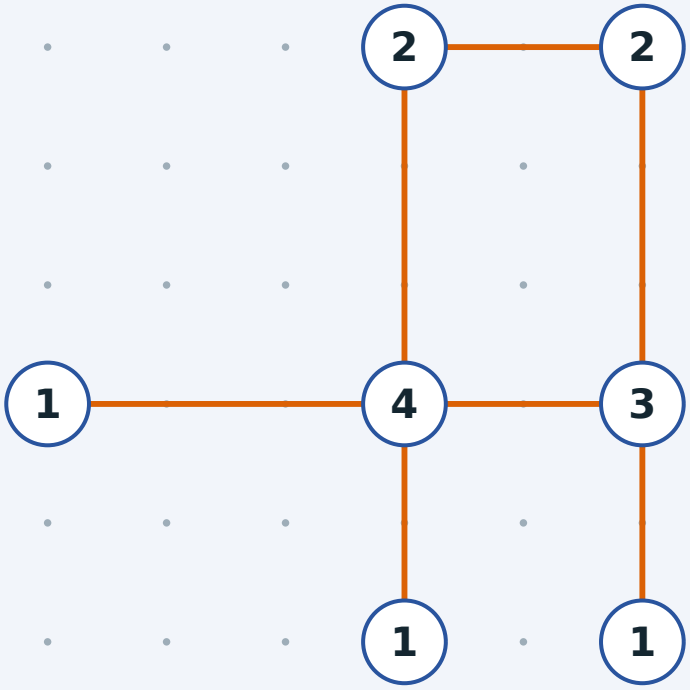

Ada Köprüleri

2. Sınıf | 2026-11-20 | Etkinlik

Adaları yatay ya da dikey düz köprülerle birleştir. Adanın üstündeki sayı, o adaya kaç köprü değdiğini gösterir. İki ada bir ya da iki köprüyle bağlanabilir. Köprüler birbirini kesmez ve bir adanın üstünden geçmez.

Yeni: iki ada çift köprüyle bağlanabilir. Çift köprüyü yan yana iki çizgi olarak çiz.

1

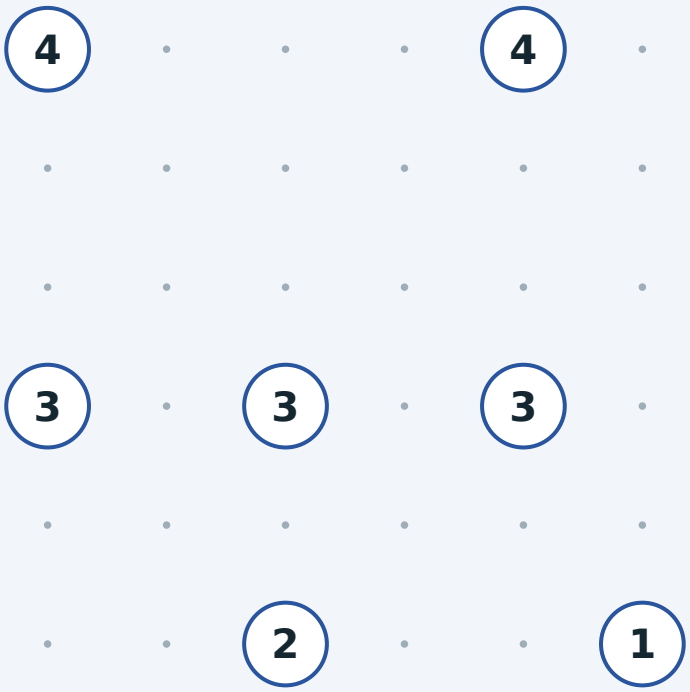

2

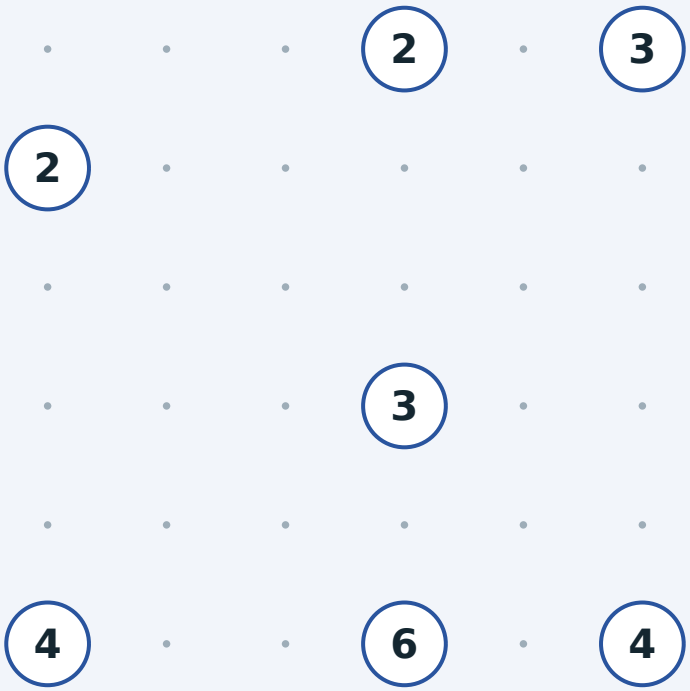

Ada Köprüleri

2. Sınıf | 2026-11-20 | Cevap anahtarı

Cevap anahtarı: köprüler turuncu çizildi. Çift köprü iki çizgidir.

1

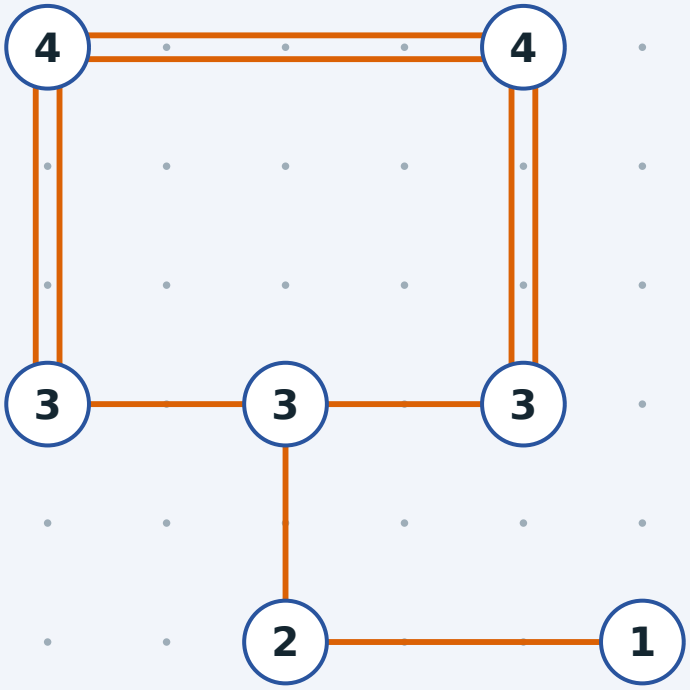

2

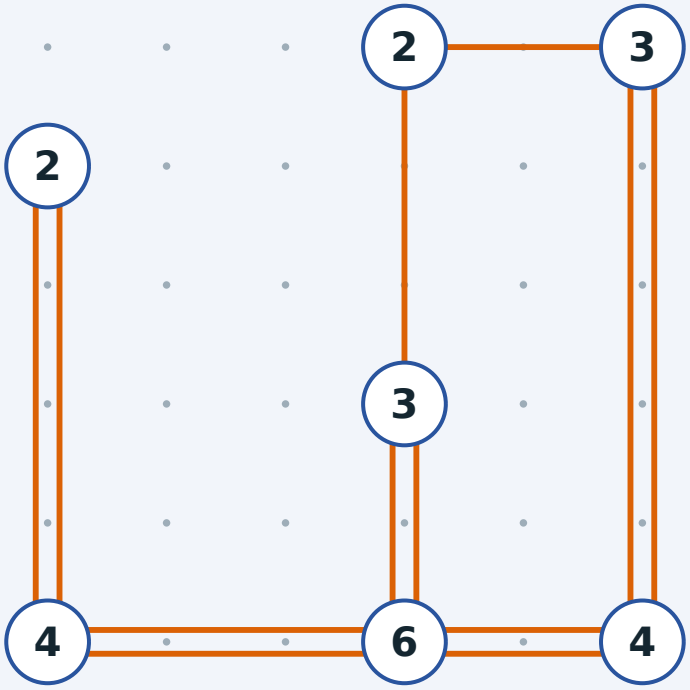

Ada Köprüleri

3. Sınıf | 2026-11-20 | Etkinlik

Adaları yatay ya da dikey düz köprülerle birleştir. Adanın üstündeki sayı, o adaya kaç köprü değdiğini gösterir. İki ada bir ya da iki köprüyle bağlanabilir. Köprüler birbirini kesmez ve bir adanın üstünden geçmez.

Sekiz ile on ada. Çizmeden önce her adanın hangi komşulara ulaşabildiğine bak.

1

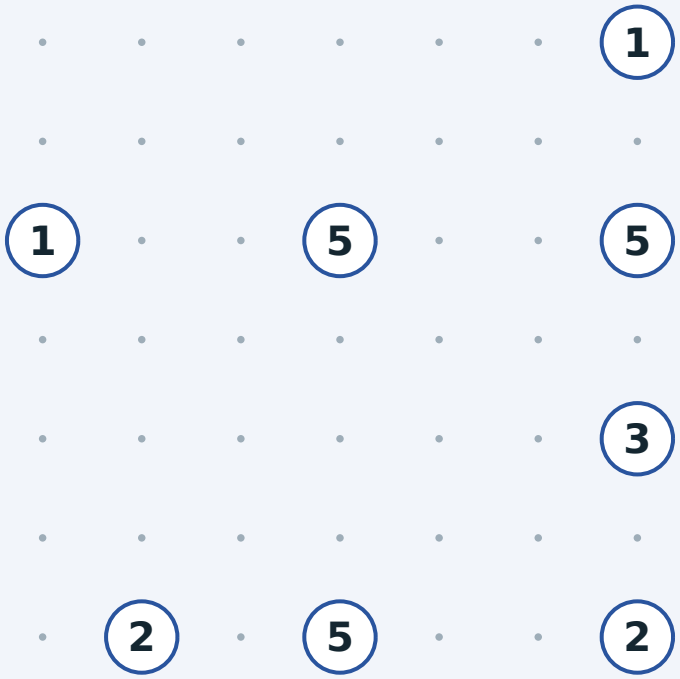

2

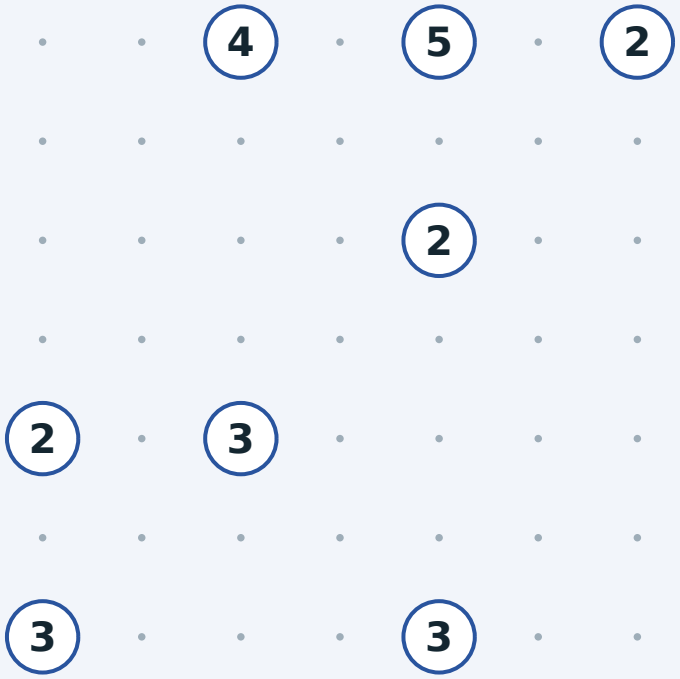

Ada Köprüleri

3. Sınıf | 2026-11-20 | Cevap anahtarı

Cevap anahtarı: köprüler turuncu çizildi. Çift köprü iki çizgidir.

1

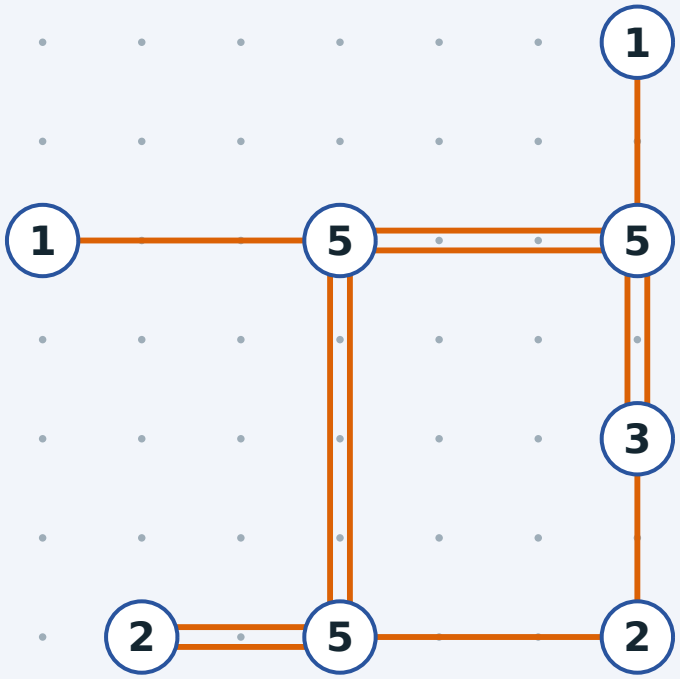

2

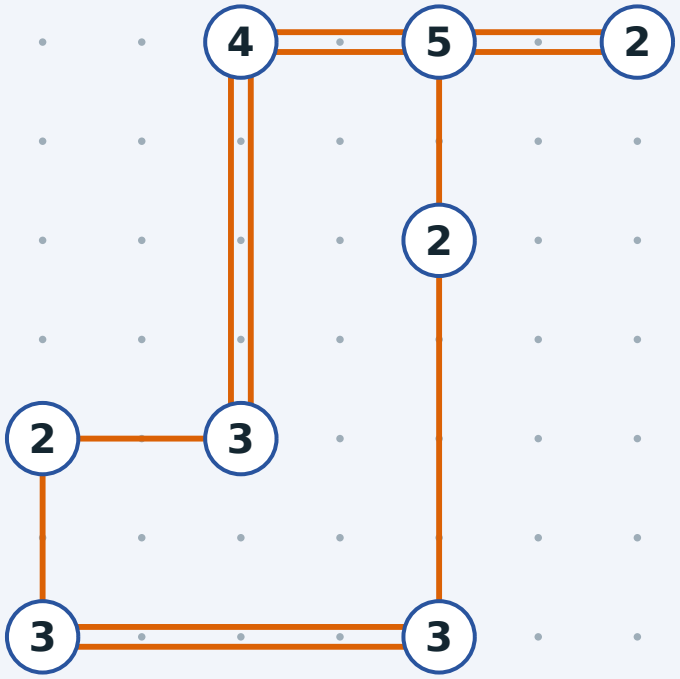

Ada Köprüleri

4. Sınıf | 2026-11-20 | Etkinlik

Adaları yatay ya da dikey düz köprülerle birleştir. Adanın üstündeki sayı, o adaya kaç köprü değdiğini gösterir. İki ada bir ya da iki köprüyle bağlanabilir. Köprüler birbirini kesmez ve bir adanın üstünden geçmez. Sonunda bütün adalar tek bir grup hâlinde birbirine bağlanmalı.

Yeni kural: bütün adalar tek grup olmalı; herhangi bir adadan diğer her adaya yürüyerek gidilebilmeli.

1

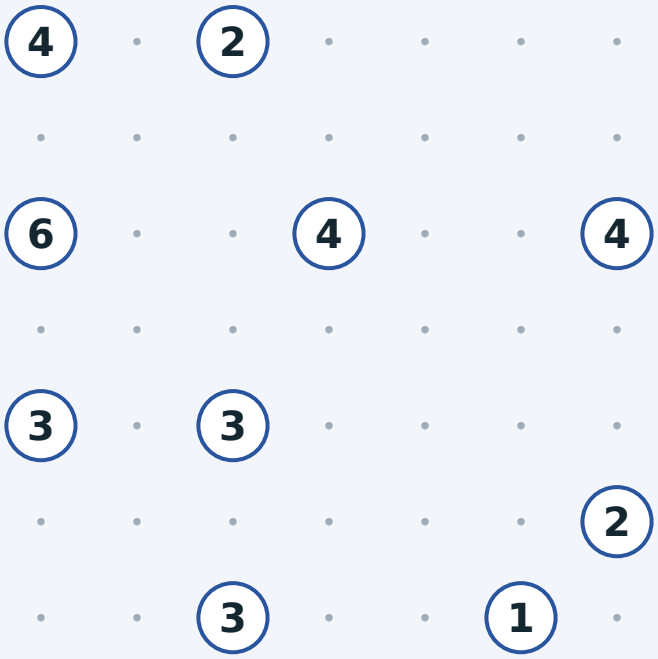

2

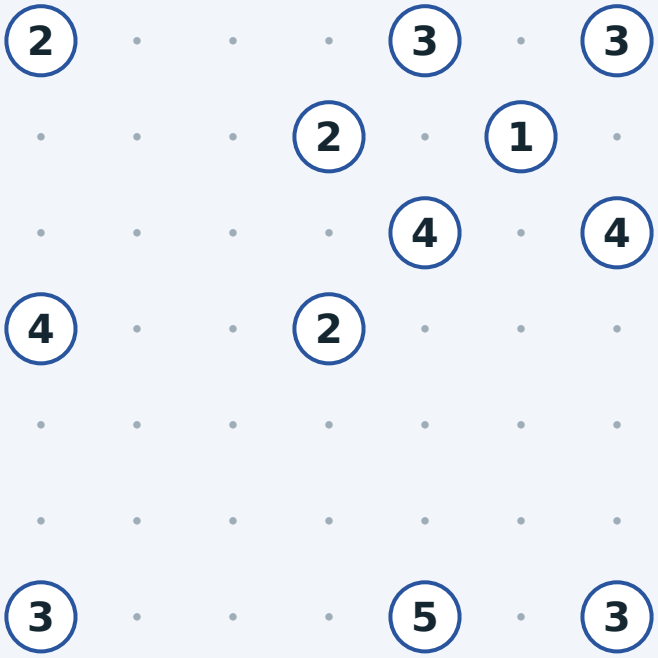

Ada Köprüleri

4. Sınıf | 2026-11-20 | Cevap anahtarı

Cevap anahtarı: köprüler turuncu çizildi. Çift köprü iki çizgidir.

1

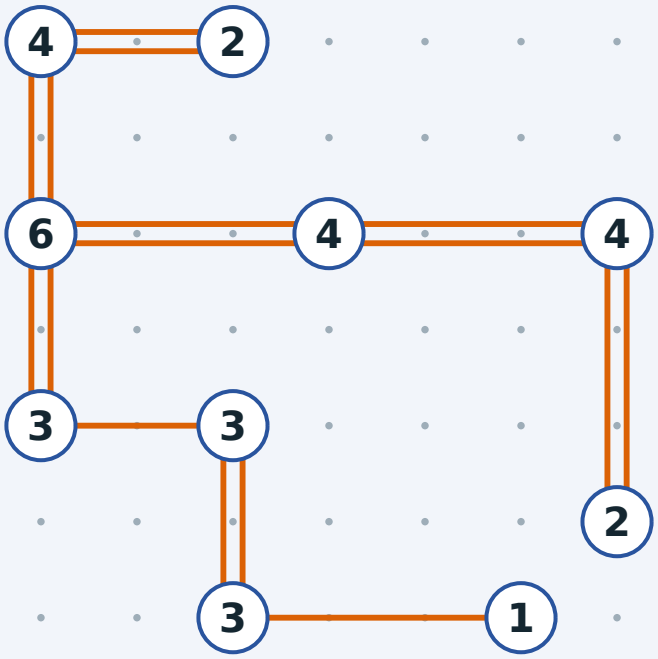

2

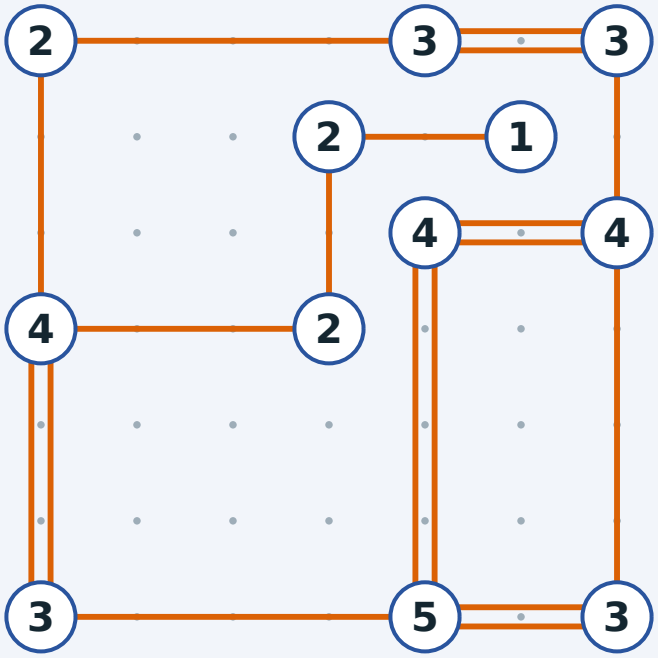

Ada Köprüleri

5. Sınıf | 2026-11-20 | Etkinlik

Adaları yatay ya da dikey düz köprülerle birleştir. Adanın üstündeki sayı, o adaya kaç köprü değdiğini gösterir. İki ada bir ya da iki köprüyle bağlanabilir. Köprüler birbirini kesmez ve bir adanın üstünden geçmez. Sonunda bütün adalar tek bir grup hâlinde birbirine bağlanmalı.

Küçük bir grubu kapatma: bazı adaları diğerlerinden koparan köprü yanlıştır.

1

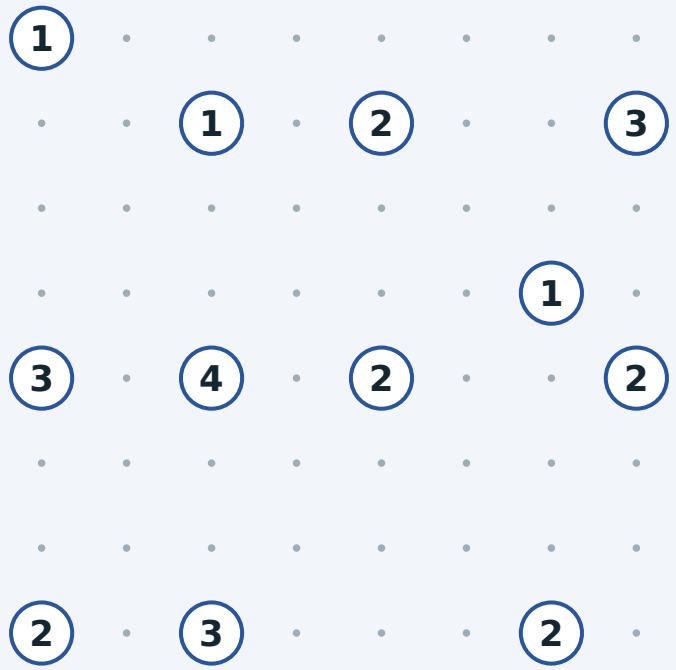

2

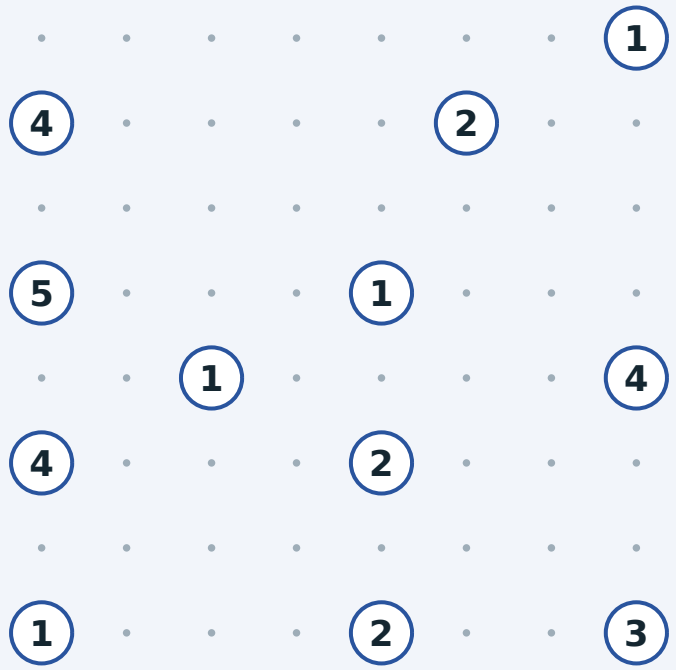

Ada Köprüleri

5. Sınıf | 2026-11-20 | Cevap anahtarı

Cevap anahtarı: köprüler turuncu çizildi. Çift köprü iki çizgidir.

1

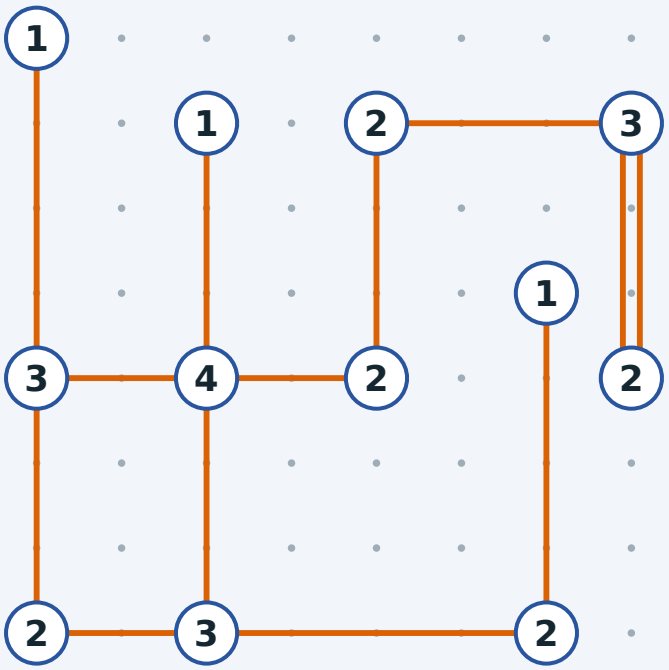

2

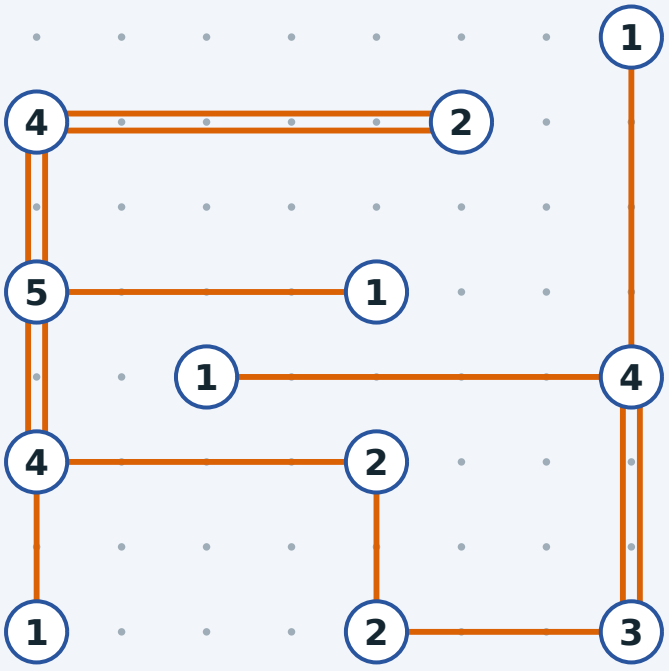

Ada Köprüleri

6. Sınıf | 2026-11-20 | Etkinlik

Adaları yatay ya da dikey düz köprülerle birleştir. Adanın üstündeki sayı, o adaya kaç köprü değdiğini gösterir. İki ada bir ya da iki köprüyle bağlanabilir. Köprüler birbirini kesmez ve bir adanın üstünden geçmez. Sonunda bütün adalar tek bir grup hâlinde birbirine bağlanmalı.

Yaklaşık 20 adalı daha büyük bir harita. Takılırsan bir köprüyü aklında dene ve bir sayının bozulup bozulmadığına bak.

1

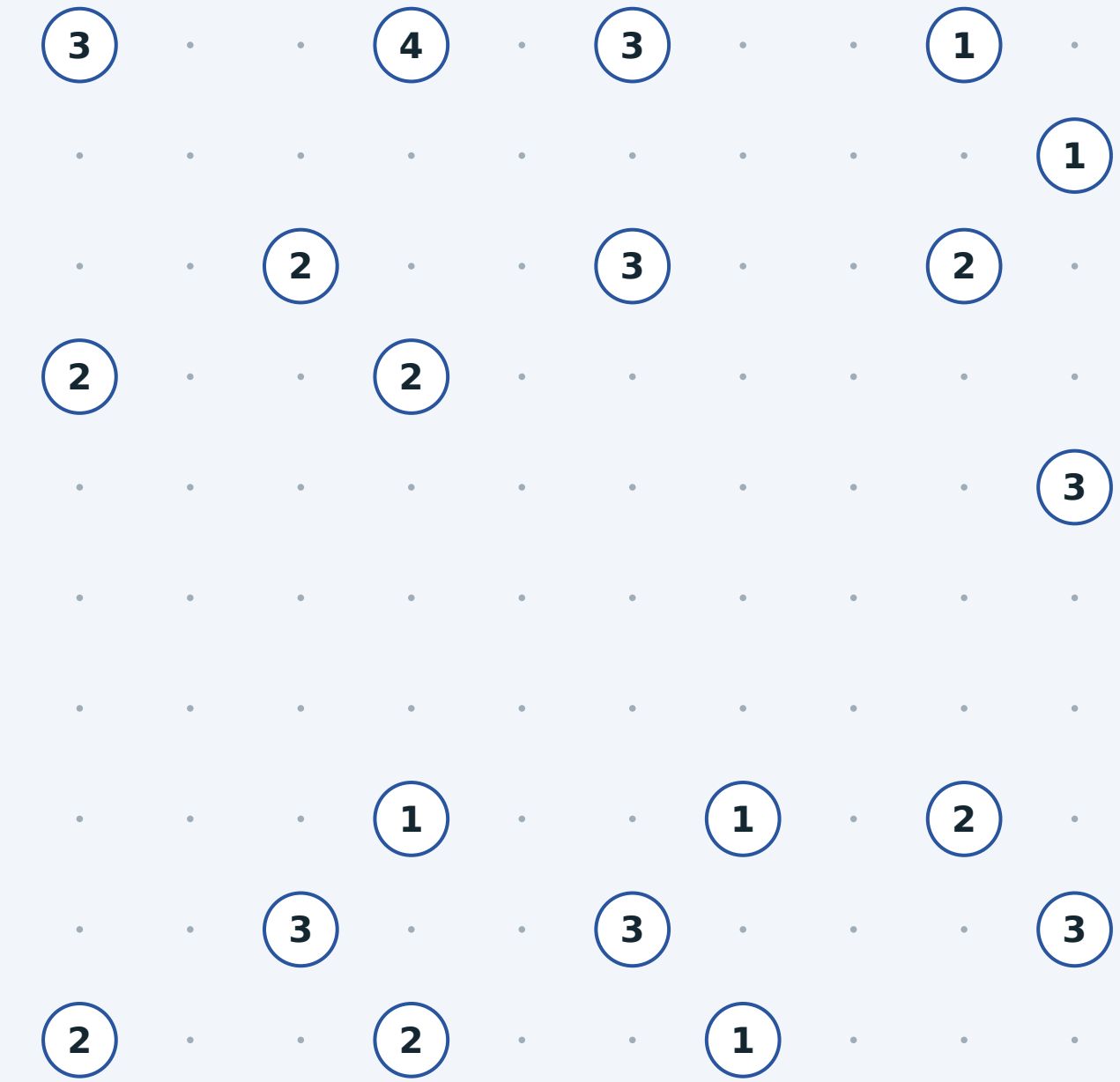

Ada Köprüleri

6. Sınıf | 2026-11-20 | Cevap anahtarı

Cevap anahtarı: köprüler turuncu çizildi. Çift köprü iki çizgidir.

1

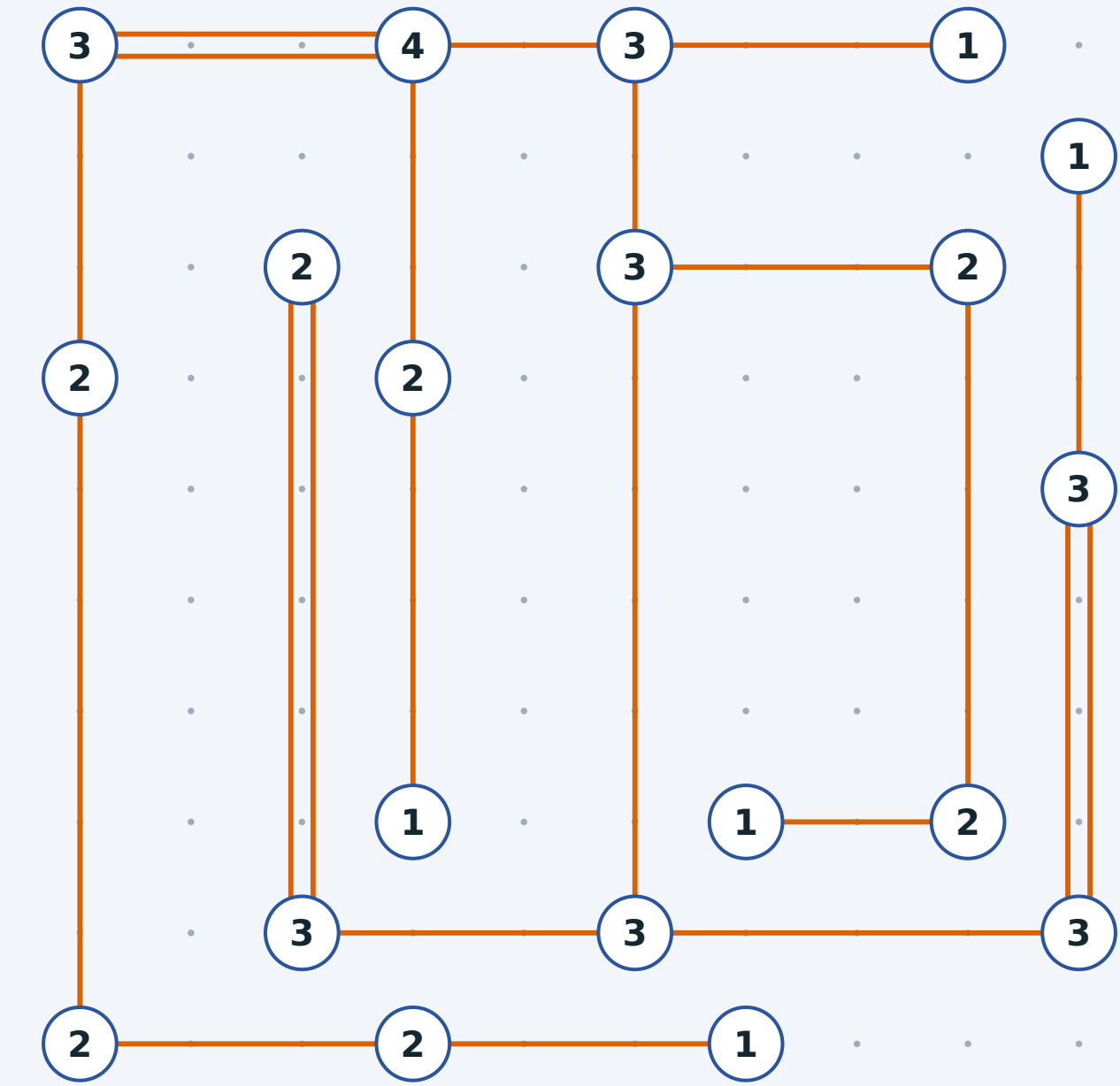

Ada Köprüleri

7. Sınıf | 2026-11-20 | Etkinlik

Adaları yatay ya da dikey düz köprülerle birleştir. Adanın üstündeki sayı, o adaya kaç köprü değdiğini gösterir. İki ada bir ya da iki köprüyle bağlanabilir. Köprüler birbirini kesmez ve bir adanın üstünden geçmez. Sonunda bütün adalar tek bir grup hâlinde birbirine bağlanmalı.

Yirmiden fazla adalı tek büyük harita. Yalnızca emin olduğun köprüleri çiz, sonra yeniden bak.

1

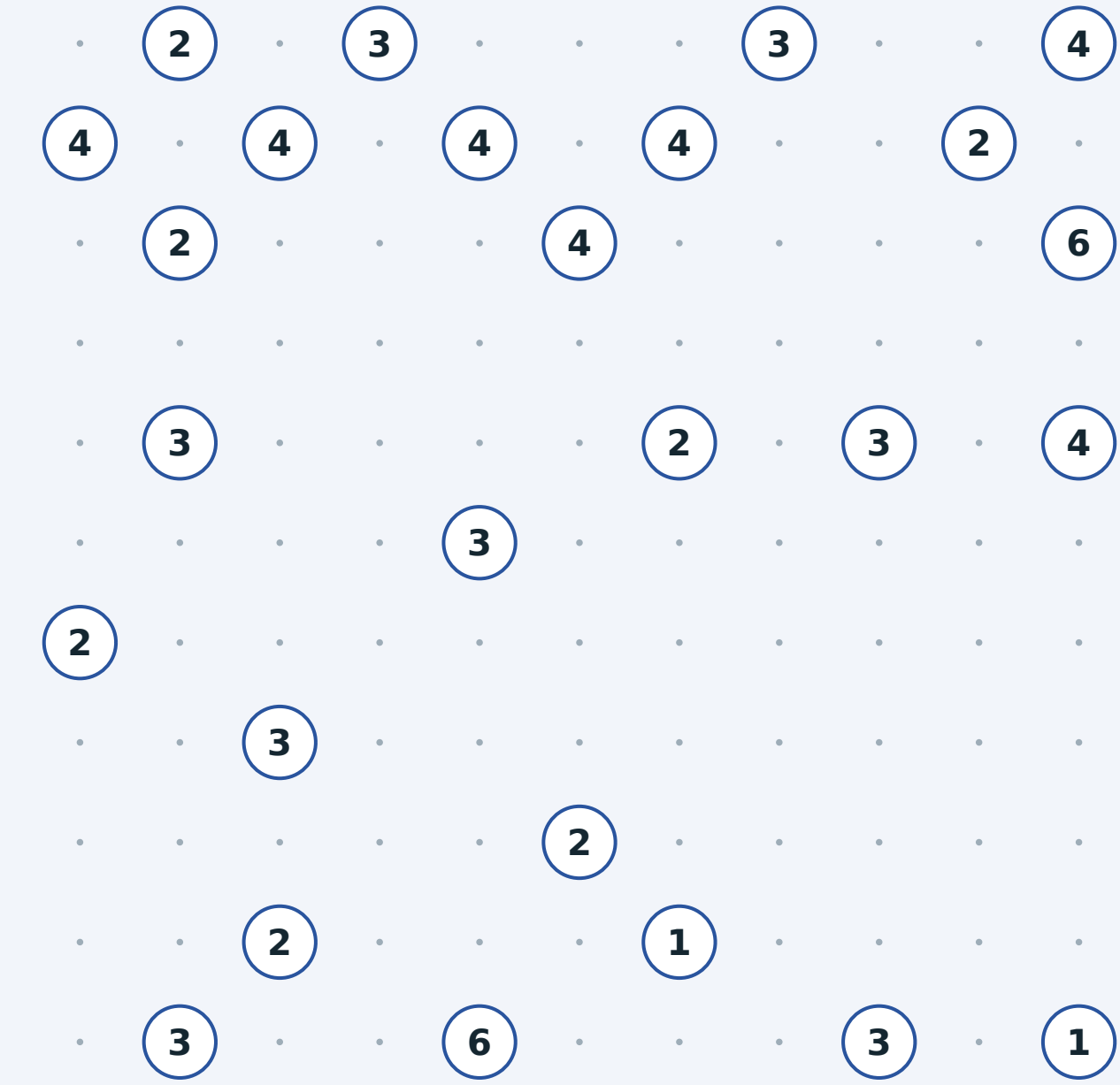

Ada Köprüleri

7. Sınıf | 2026-11-20 | Cevap anahtarı

Cevap anahtarı: köprüler turuncu çizildi. Çift köprü iki çizgidir.

1

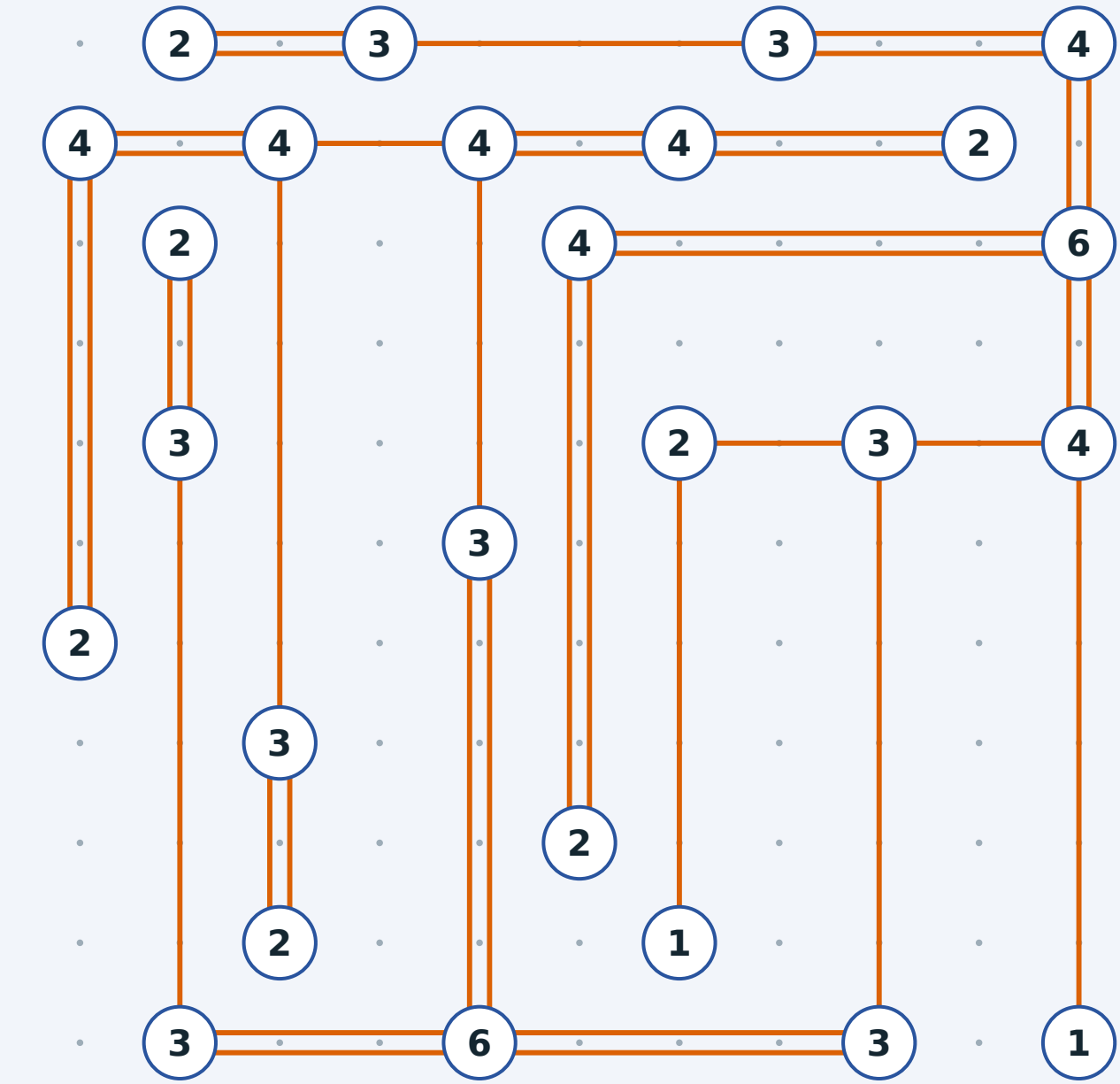

Ada Köprüleri

8. Sınıf | 2026-11-20 | Etkinlik

Adaları yatay ya da dikey düz köprülerle birleştir. Adanın üstündeki sayı, o adaya kaç köprü değdiğini gösterir. İki ada bir ya da iki köprüyle bağlanabilir. Köprüler birbirini kesmez ve bir adanın üstünden geçmez. Sonunda bütün adalar tek bir grup hâlinde birbirine bağlanmalı.

Otuzdan fazla adalı en büyük harita. Tek grup kuralı dâhil bütün kuralları kullan.

1

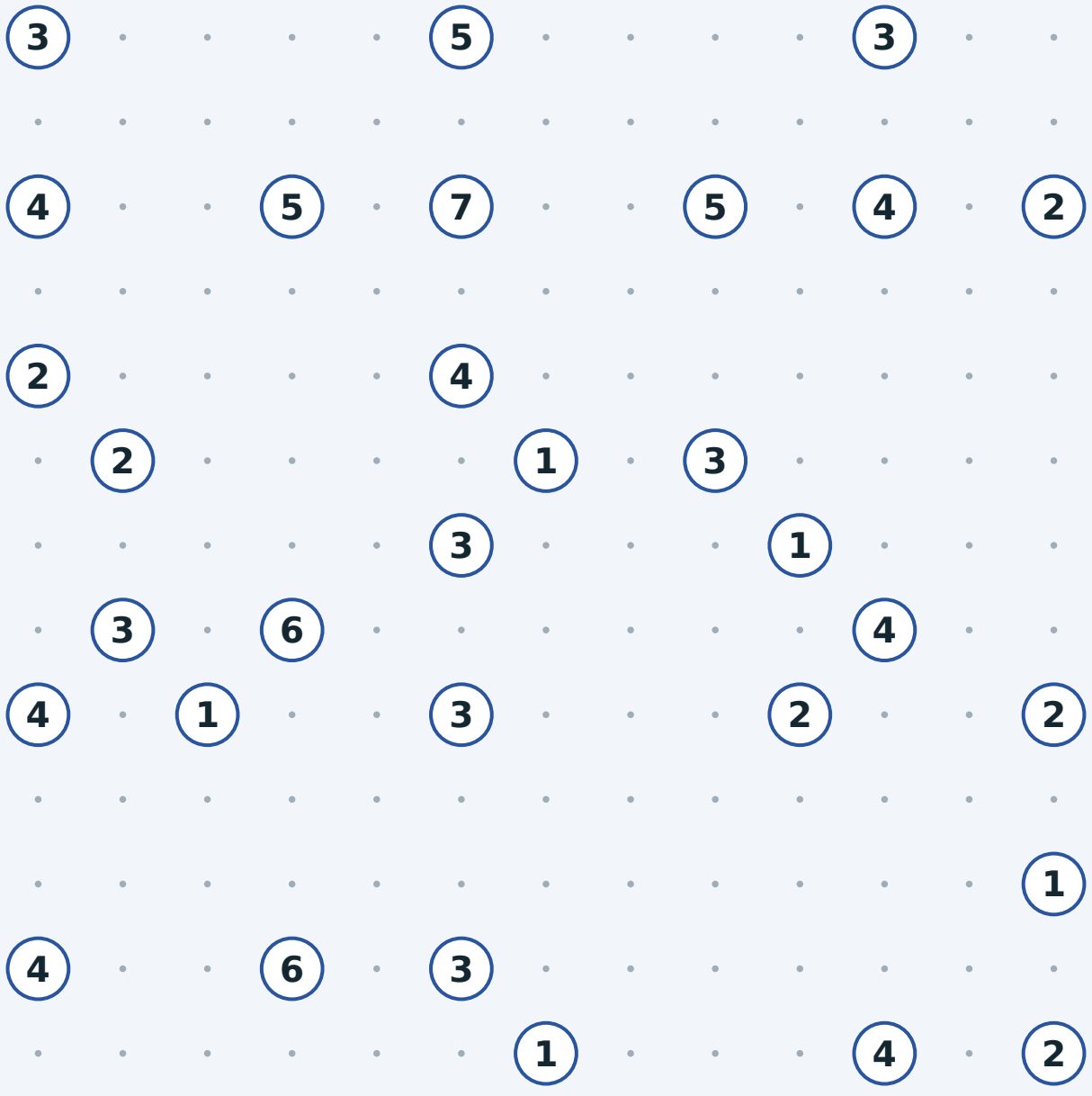

Ada Köprüleri

8. Sınıf | 2026-11-20 | Cevap anahtarı

Cevap anahtarı: köprüler turuncu çizildi. Çift köprü iki çizgidir.

1

