Gizli Şekiller

Anaokulu | 2026-11-22 | Etkinlik

Bir yetişkin yüksek sesle okuyabilir. Her sorunun yanındaki küçük resme bak. Büyük resimde o şekillerden kaç tane olduğunu say ve doğru sayının harfini yuvarlak içine al.

Küçük resme benzeyen şekilleri say. Her birine bir kez dokun.

1 ▲ **Kaç üçgen var?**

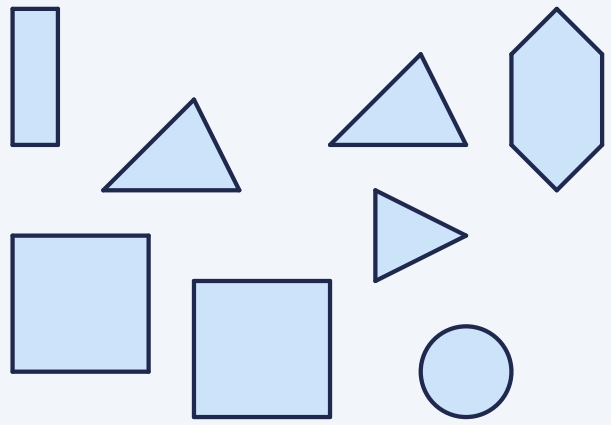

A 3 B 4 C 5

2 ■ **Kaç kare var?**

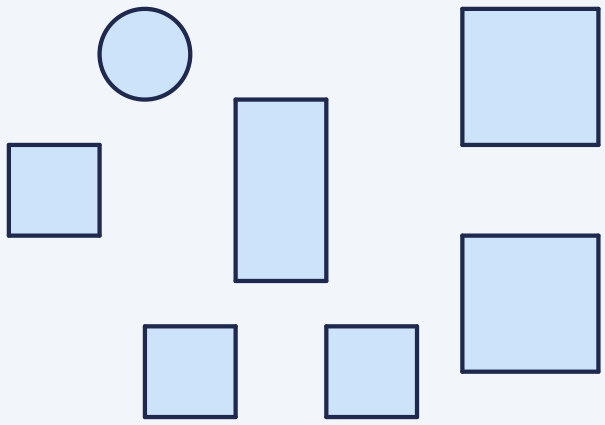

A 4 B 5 C 6

3 ▲ **Kaç üçgen var?**

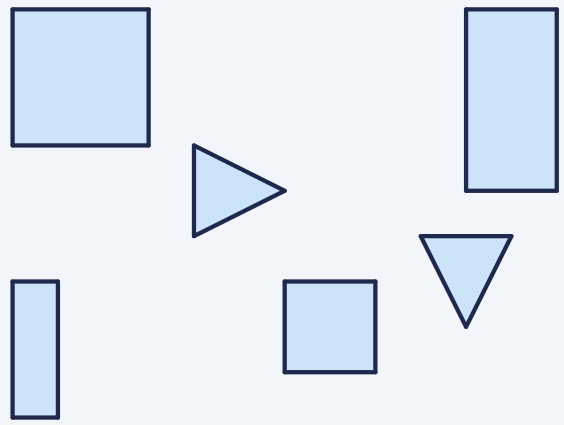

A 1 B 2 C 3

4 ■ **Kaç kare var?**

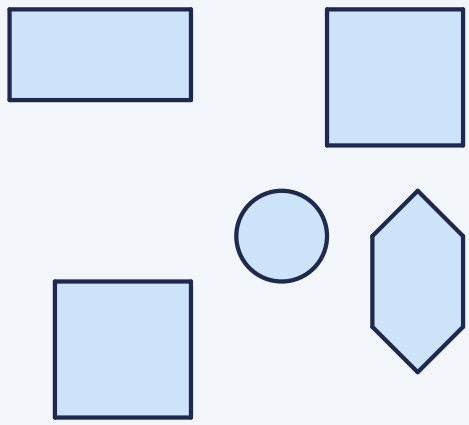

A 2 B 3 C 5

Gizli Şekiller

Anaokulu | 2026-11-22 | Cevap anahtarı

Halka doğru cevabı gösterir. Turuncu noktalar sayılacak şekilleri işaretler.

1 ▲ **Kaç üçgen var?**

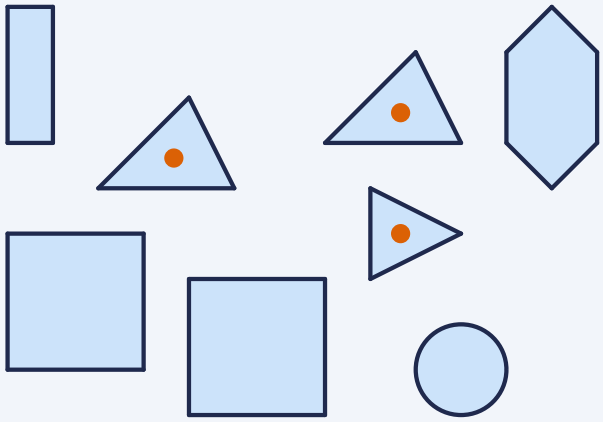

(A) 3 B 4 C 5

2 ■ **Kaç kare var?**

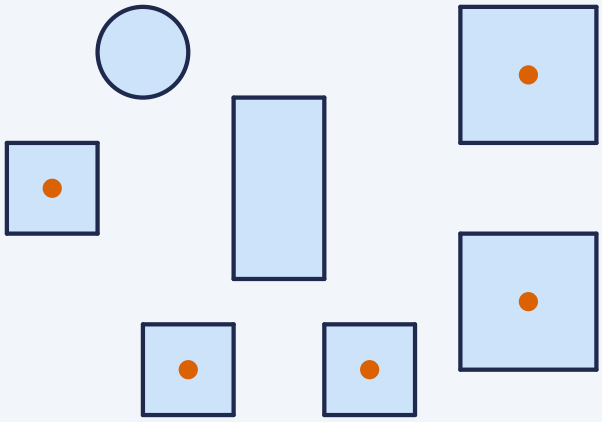

A 4 (B) 5 C 6

3 ▲ **Kaç üçgen var?**

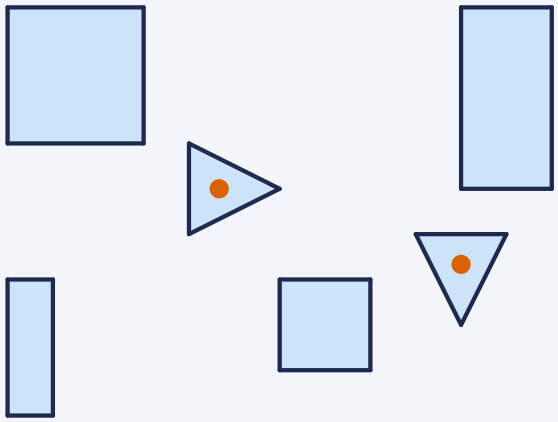

A 1 (B) 2 C 3

4 ■ **Kaç kare var?**

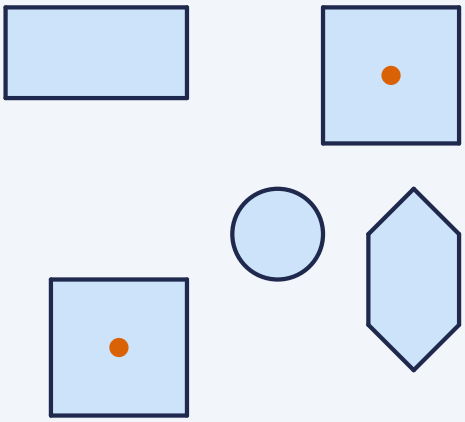

(A) 2 B 3 C 5

Gizli Şekiller

1. Sınıf | 2026-11-22 | Etkinlik

Şekiller çizimlerin içine gizlendi: bir şeklin bütün kenarları çizili çizgilerin üzerindeyse o şekil sayılır. Küçük şekiller birleşip büyüklerini oluşturur; her boyuttakini ara. Cevabının harfini yuvarlak içine al.

Önce küçük kareleri say, sonra dört kareden oluşan büyük kareyi ara.

1 ■ **Kaç kare var?**

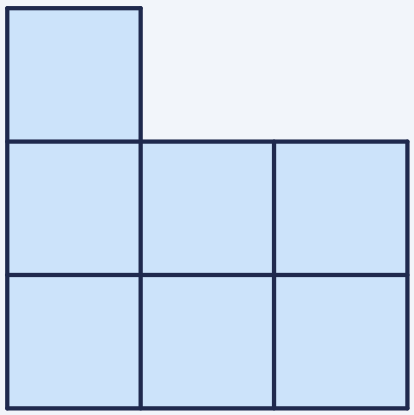

A 7 **B** 9 **C** 10

2 ▲ **Kaç üçgen var?**

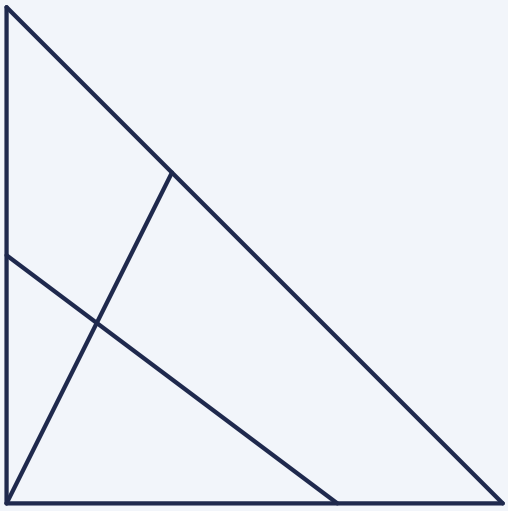

A 6 **B** 7 **C** 8

3 ■ **Kaç kare var?**

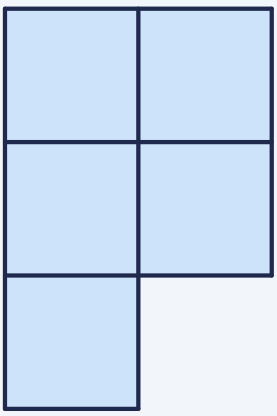

A 6 **B** 7 **C** 8

4 ▲ **Kaç üçgen var?**

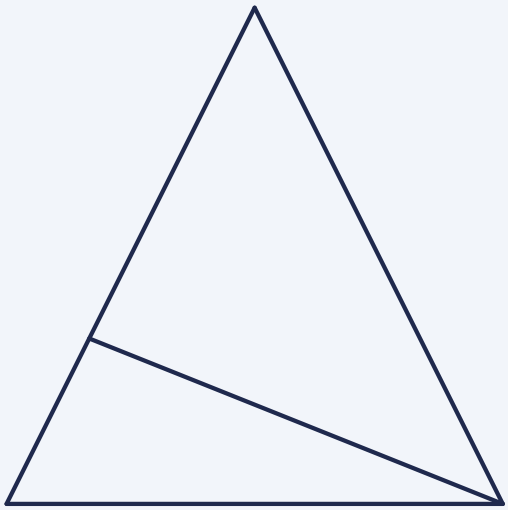

A 2 **B** 3 **C** 4

Gizli Şekiller

1. Sınıf | 2026-11-22 | Cevap anahtarı

Halka doğru cevabı gösterir. Turuncu satır önce tek parçalı, sonra 2, 3 ve daha çok parçalı şekilleri toplar.

1 ■ Kaç kare var?

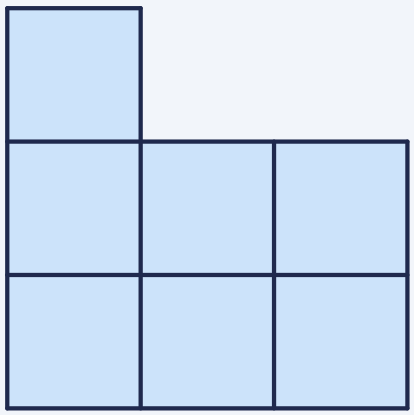

7 + 2 = 9

A 7 **B 9** C 10

2 ▲ Kaç üçgen var?

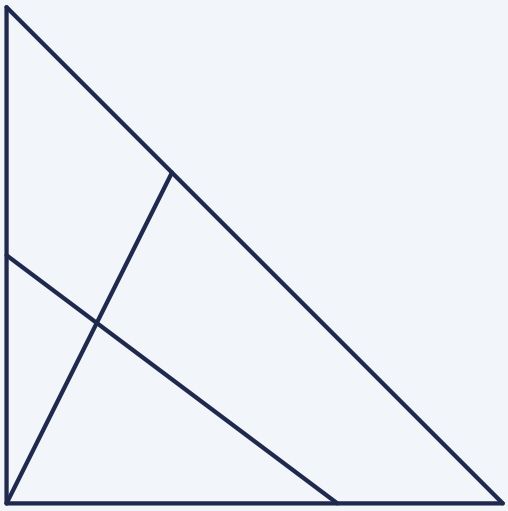

2 + 3 + 1 = 6

A 6 B 7 C 8

3 ■ Kaç kare var?

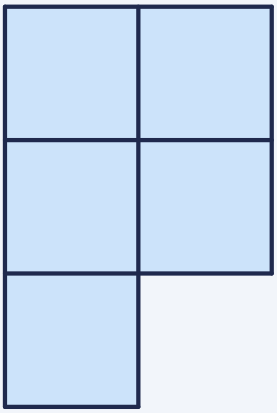

5 + 1 = 6

A 6 B 7 C 8

4 ▲ Kaç üçgen var?

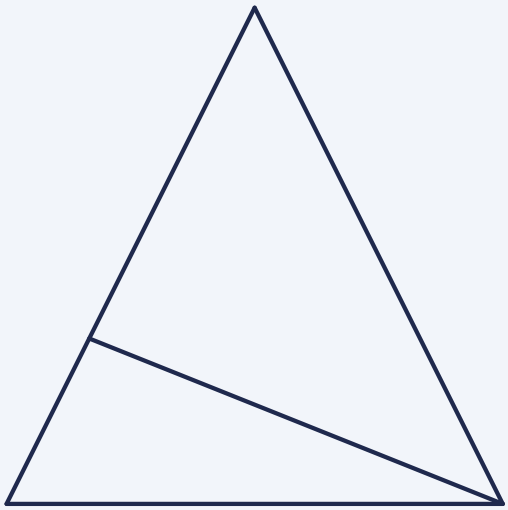

2 + 1 = 3

A 2 **B 3** C 4

Gizli Şekiller

2. Sınıf | 2026-11-22 | Etkinlik

Şekiller çizimlerin içine gizlendi: bir şeklin bütün kenarları çizili çizgilerin üzerindeyse o şekil sayılır. Küçük şekiller birleşip büyüklerini oluşturur; her boyuttakini ara. Cevabının harfini yuvarlak içine al.

Önce tek parçalı şekilleri, sonra 2, 3 ya da daha çok parçadan oluşanları say.

1 Kaç kare var?

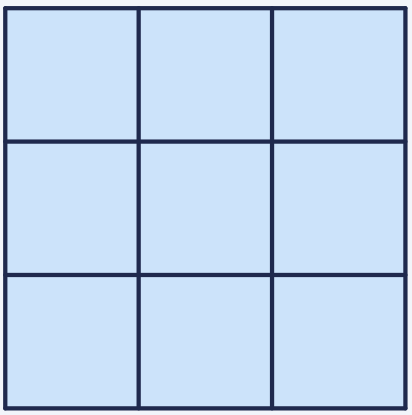

A 9 B 13 C 14 D 15

2 Kaç üçgen var?

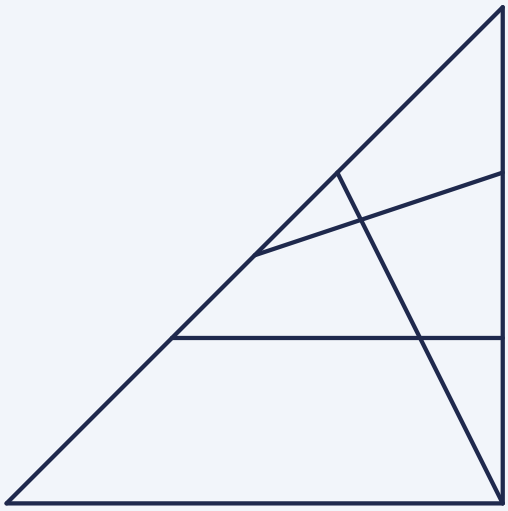

A 8 B 9 C 10 D 12

3 Kaç kare var?

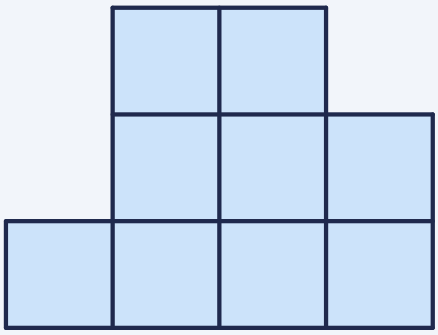

A 12 B 13 C 15 D 16

4 Kaç üçgen var?

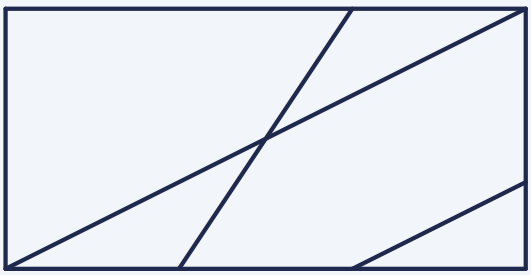

A 3 B 4 C 5 D 6

Gizli Şekiller

2. Sınıf | 2026-11-22 | Cevap anahtarı

Halka doğru cevabı gösterir. Turuncu satır önce tek parçalı, sonra 2, 3 ve daha çok parçalı şekilleri toplar.

1 ■ **Kaç kare var?**

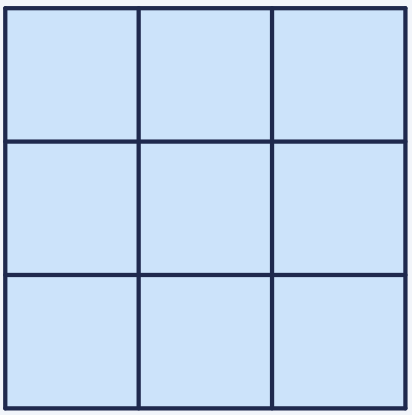

9 + 4 + 1 = 14

A 9 B 13 **C 14** D 15

2 ▲ **Kaç üçgen var?**

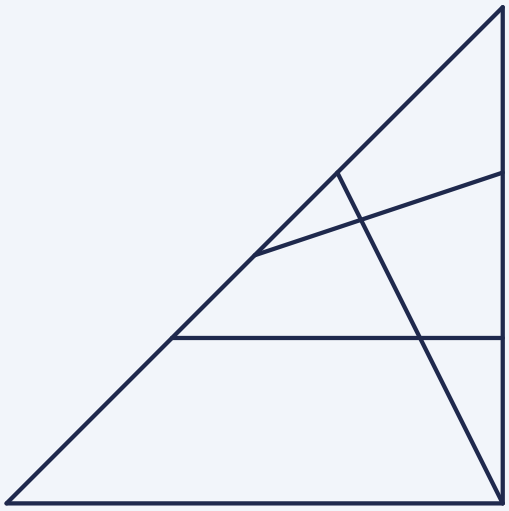

2 + 3 + 2 + 1 + 1 = 9

A 8 **B 9** C 10 D 12

3 ■ **Kaç kare var?**

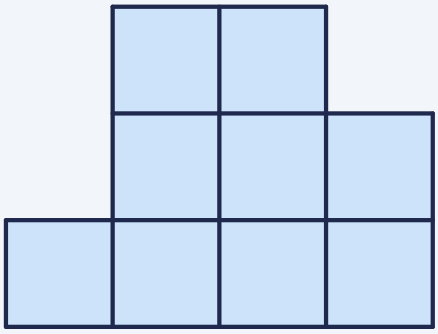

9 + 3 = 12

A 12 B 13 C 15 D 16

4 ▲ **Kaç üçgen var?**

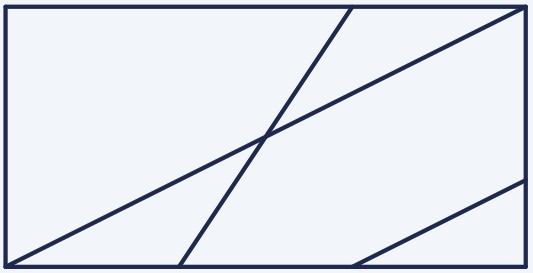

3 + 1 + 1 = 5

A 3 B 4 **C 5** D 6

Gizli Şekiller

3. Sınıf | 2026-11-22 | Etkinlik

Şekiller çizimlerin içine gizlendi: bir şeklin bütün kenarları çizili çizgilerin üzerindeyse o şekil sayılır. Küçük şekiller birleşip büyüklerini oluşturur; her boyuttakini ara. Cevabının harfini yuvarlak içine al.

Tek kareleri, yan yana ikilileri, sonra daha uzun ve büyük dikdörtgenleri say. Kareler de dikdörtgendir.

1 **Kaç dikdörtgen var? Kareler de sayılır.**

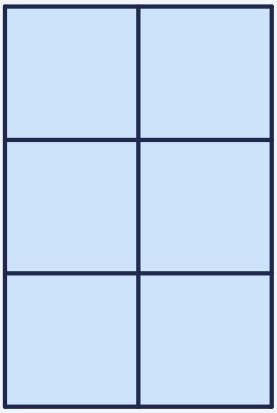

A 15 B 16 C 17 D 18

2 **Kaç üçgen var?**

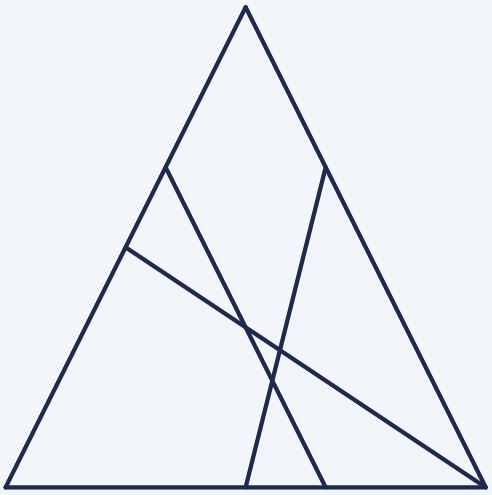

A 8 B 9 C 10 D 11

3 **Kaç dikdörtgen var? Kareler de sayılır.**

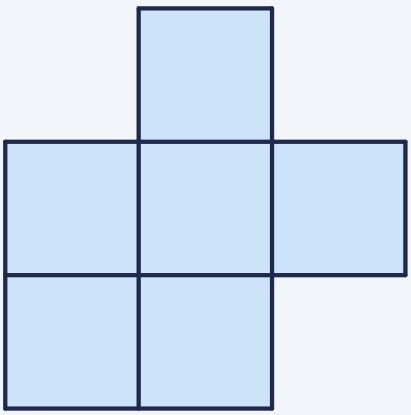

A 13 B 14 C 15 D 16

4 **Kaç üçgen var?**

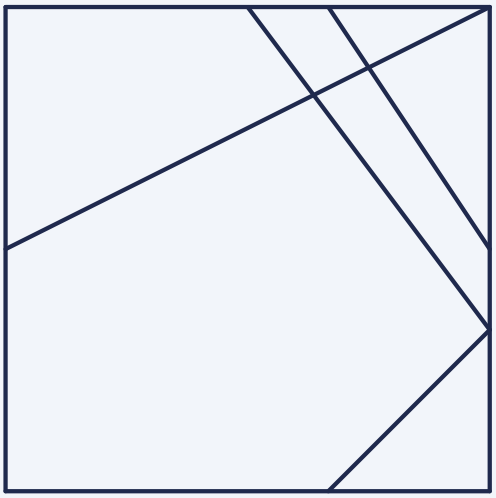

A 8 B 9 C 11 D 12

Gizli Şekiller

3. Sınıf | 2026-11-22 | Cevap anahtarı

Halka doğru cevabı gösterir. Turuncu satır önce tek parçalı, sonra 2, 3 ve daha çok parçalı şekilleri toplar.

1 Kaç dikdörtgen var? Kareler de sayılır.

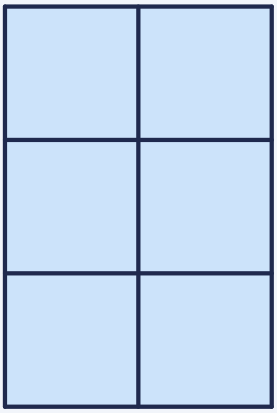

6 + 7 + 2 + 2 + 1 = 18

A 15 B 16 C 17 **D 18**

2 Kaç üçgen var?

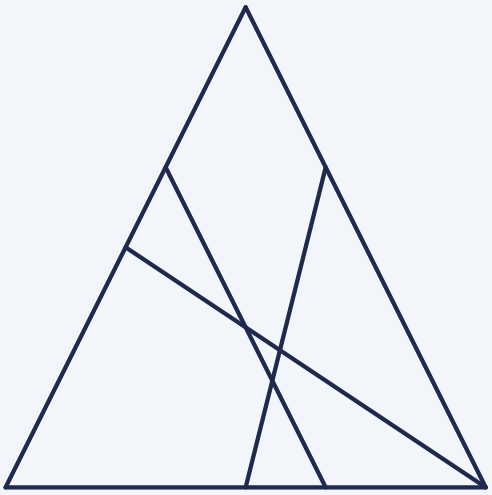

4 + 2 + 3 + 1 + 1 = 11

A 8 B 9 C 10 **D 11**

3 Kaç dikdörtgen var? Kareler de sayılır.

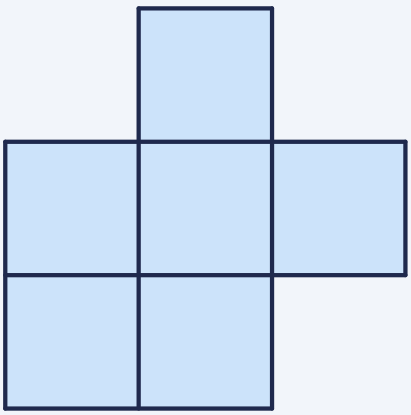

6 + 6 + 2 + 1 = 15

A 13 B 14 **C 15** D 16

4 Kaç üçgen var?

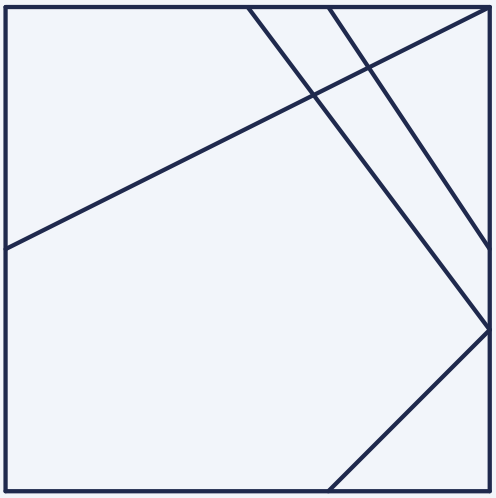

3 + 3 + 1 + 1 = 8

A 8 B 9 C 11 D 12

Gizli Şekiller

4. Sınıf | 2026-11-22 | Etkinlik

Şekiller çizimlerin içine gizlendi: bir şeklin bütün kenarları çizili çizgilerin üzerindeyse o şekil sayılır. Küçük şekiller birleşip büyüklerini oluşturur; her boyuttakini ara. Cevabının harfini yuvarlak içine al.

Kareler: önce 1 × 1, sonra 2 × 2, sonra 3 × 3 olanları say. Saydıklarını işaretle.

1 ■ **Kaç kare var?**

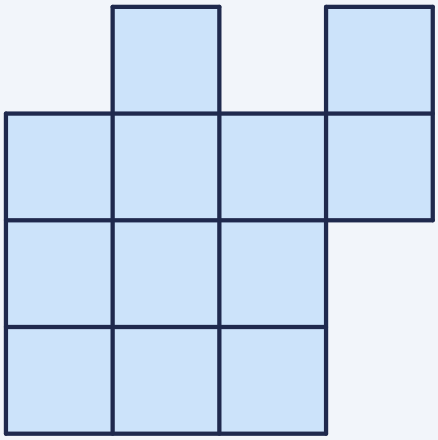

A 12 B 16 C 17 D 18

2 ▲ **Kaç üçgen var?**

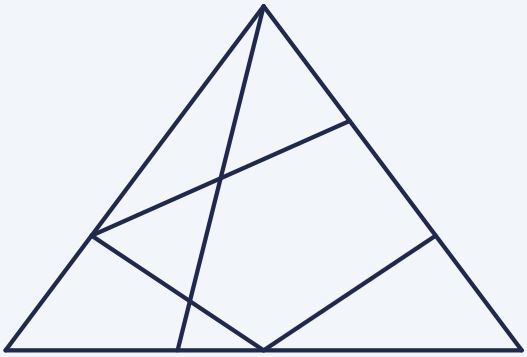

A 10 B 11 C 12 D 13

3 ■ **Kaç kare var?**

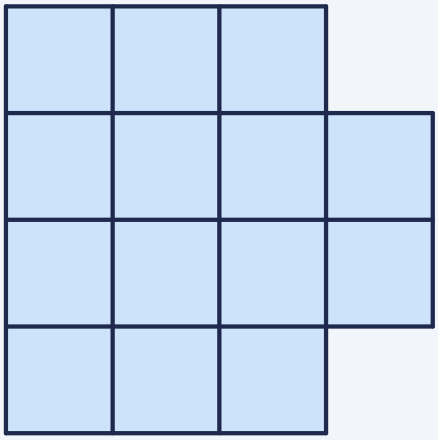

A 14 B 21 C 22 D 23

4 ▲ **Kaç üçgen var?**

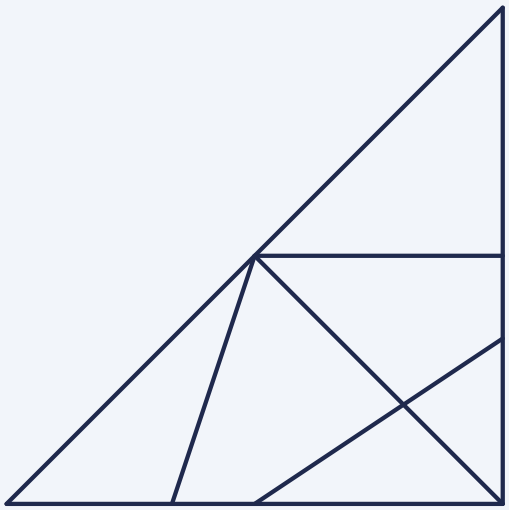

A 9 B 10 C 11 D 12

Gizli Şekiller

4. Sınıf | 2026-11-22 | Cevap anahtarı

Halka doğru cevabı gösterir. Turuncu satır önce tek parçalı, sonra 2, 3 ve daha çok parçalı şekilleri toplar.

1 ■ Kaç kare var?

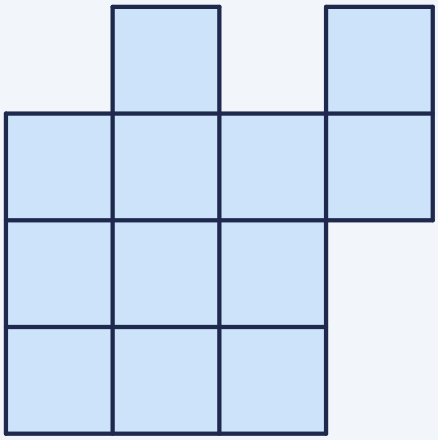

12 + 4 + 1 = 17

A 12 B 16 **C 17** D 18

2 ▲ Kaç üçgen var?

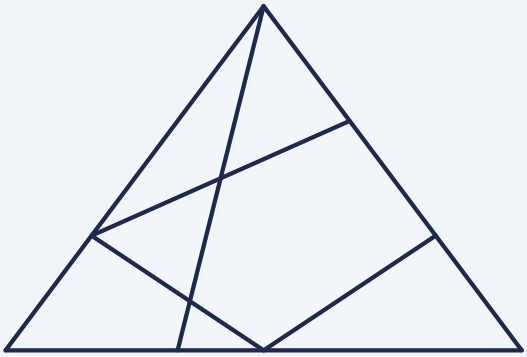

5 + 3 + 1 + 1 + 1 = 11

A 10 **B 11** C 12 D 13

3 ■ Kaç kare var?

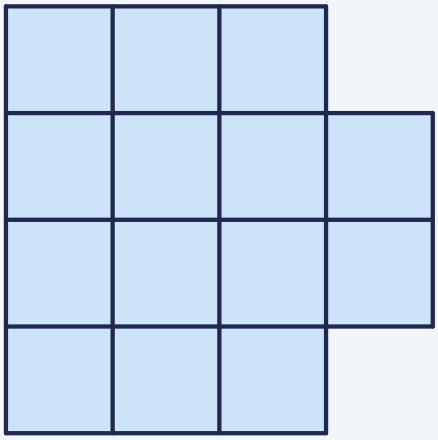

14 + 7 + 2 = 23

A 14 B 21 C 22 **D 23**

4 ▲ Kaç üçgen var?

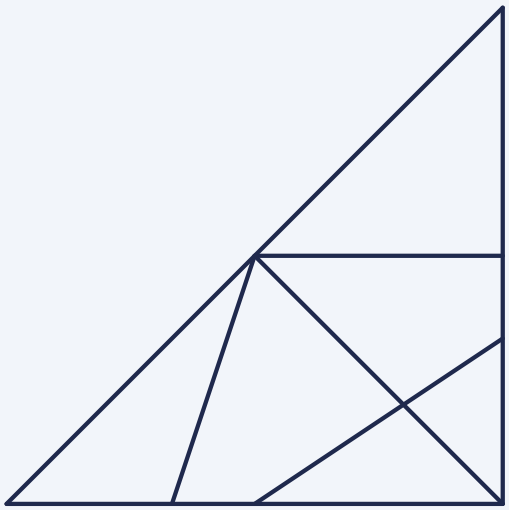

4 + 3 + 2 + 1 = 10

A 9 **B 10** C 11 D 12

Gizli Şekiller

5. Sınıf | 2026-11-22 | Etkinlik

Şekiller çizimlerin içine gizlendi: bir şeklin bütün kenarları çizili çizgilerin üzerindeyse o şekil sayılır. Küçük şekiller birleşip büyüklerini oluşturur; her boyuttakini ara. Cevabının harfini yuvarlak içine al.

Dikdörtgenleri satır satır ve sütun sütun say. Kareler de sayılır.

1 ▬ **Kaç dikdörtgen var? Kareler de sayılır.**

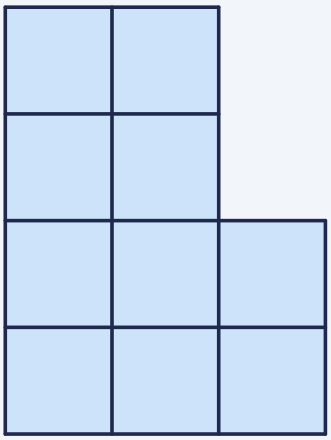

A 39 **B** 40 **C** 41 **D** 42

2 ▲ **Kaç üçgen var?**

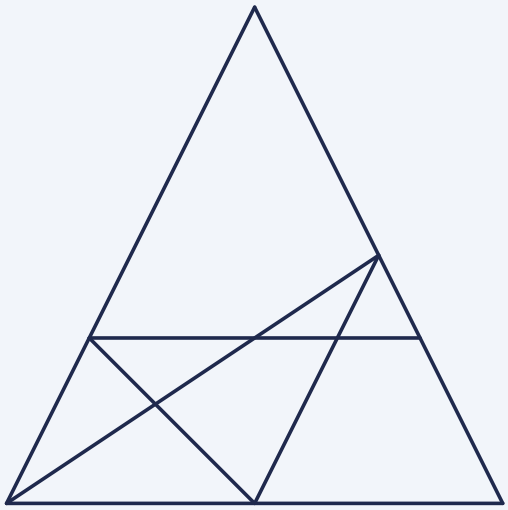

A 13 **B** 14 **C** 15 **D** 16

3 ▬ **Kaç dikdörtgen var? Kareler de sayılır.**

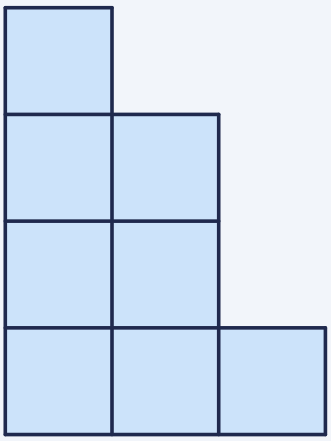

A 22 **B** 23 **C** 24 **D** 25

4 ▲ **Kaç üçgen var?**

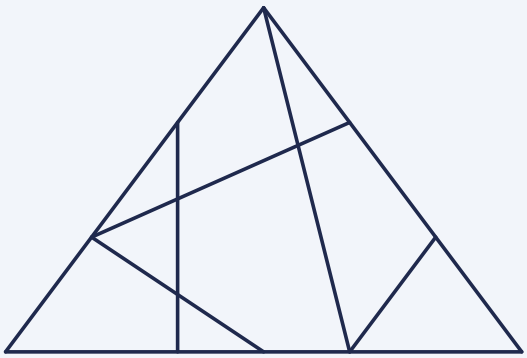

A 14 **B** 15 **C** 16 **D** 18

Gizli Şekiller

5. Sınıf | 2026-11-22 | Cevap anahtarı

Halka doğru cevabı gösterir. Turuncu satır önce tek parçalı, sonra 2, 3 ve daha çok parçalı şekilleri toplar.

1 Kaç dikdörtgen var? Kareler de sayılır.

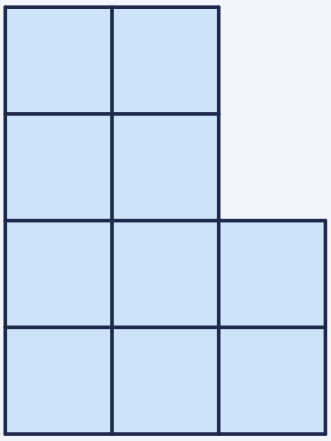

10 + 13 + 6 + 6 + 3 + 1 = 39

A 39 B 40 C 41 D 42

2 Kaç üçgen var?

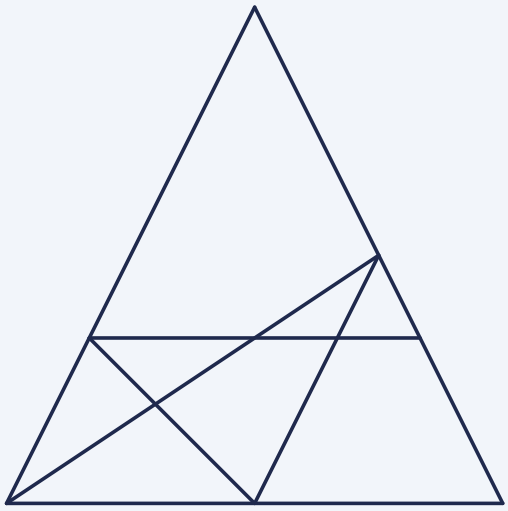

5 + 6 + 3 + 1 + 1 = 16

A 13 B 14 C 15 **D 16**

3 Kaç dikdörtgen var? Kareler de sayılır.

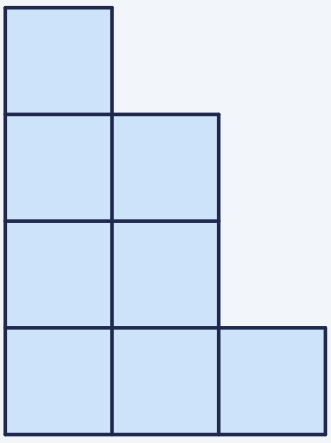

8 + 9 + 4 + 3 + 1 = 25

A 22 B 23 C 24 **D 25**

4 Kaç üçgen var?

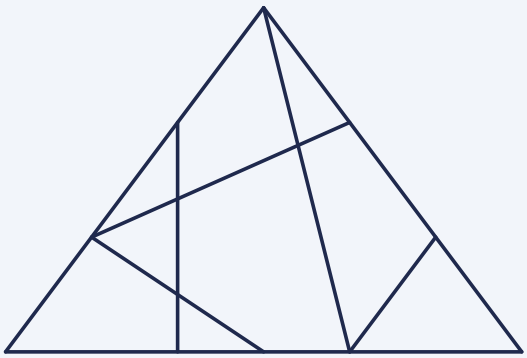

5 + 4 + 3 + 1 + 1 = 14

A 14 B 15 C 16 D 18

Gizli Şekiller

6. Sınıf | 2026-11-22 | Etkinlik

Şekiller çizimlerin içine gizlendi: bir şeklin bütün kenarları çizili çizgilerin üzerindeyse o şekil sayılır. Küçük şekiller birleşip büyüklerini oluşturur; her boyuttakini ara. Cevabının harfini yuvarlak içine al.

İki çerçevenin kesiştiği yerde yeni dikdörtgenler oluşur. Küçükten büyüğe doğru say.

1 **Kaç dikdörtgen var? Kareler de sayılır.**

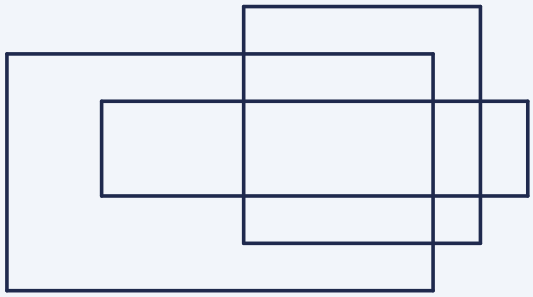

A 22 B 23 C 24 D 27

2 **Kaç üçgen var?**

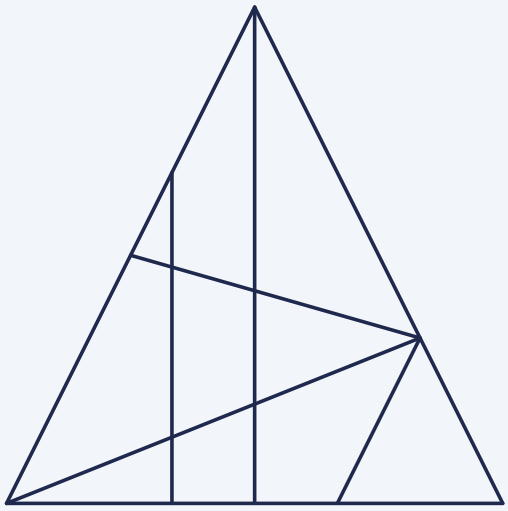

A 18 B 19 C 20 D 21

3 **Kaç dikdörtgen var? Kareler de sayılır.**

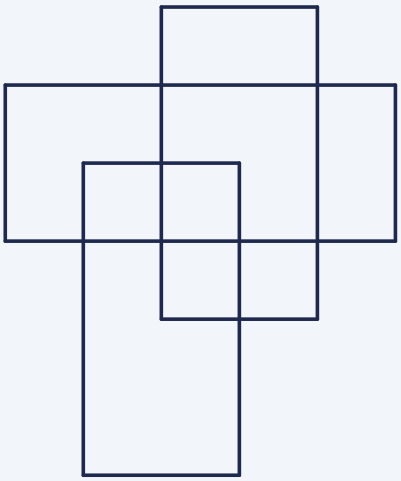

A 17 B 18 C 19 D 20

4 **Kaç üçgen var?**

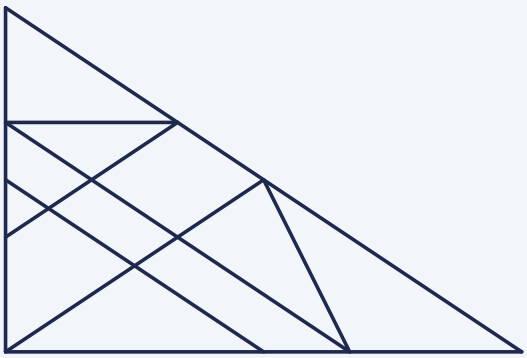

A 15 B 16 C 17 D 18

Gizli Şekiller

6. Sınıf | 2026-11-22 | Cevap anahtarı

Halka doğru cevabı gösterir. Turuncu satır önce tek parçalı, sonra 2, 3 ve daha çok parçalı şekilleri toplar.

1 ▭ **Kaç dikdörtgen var? Kareler de sayılır.**

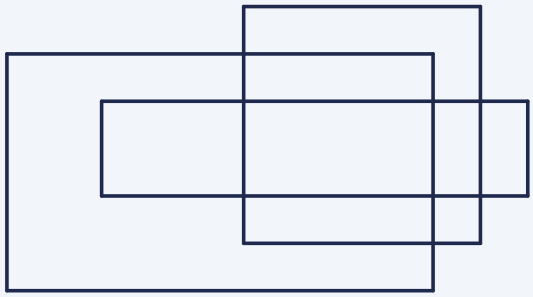

7 + 8 + 3 + 3 + 1 + 1 = 23

A 22 **B 23** C 24 D 27

2 ▲ **Kaç üçgen var?**

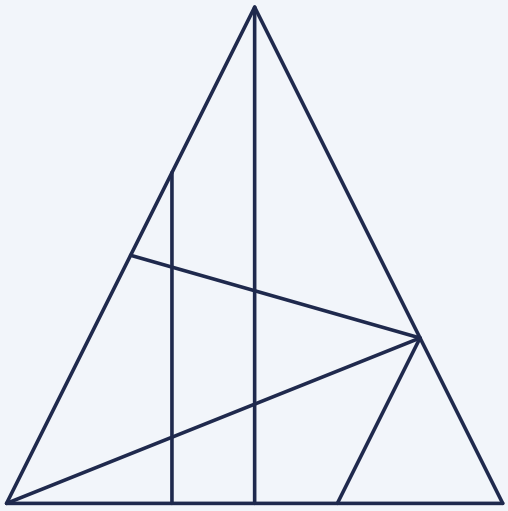

5 + 5 + 4 + 3 + 2 + 1 = 20

A 18 B 19 **C 20** D 21

3 ▭ **Kaç dikdörtgen var? Kareler de sayılır.**

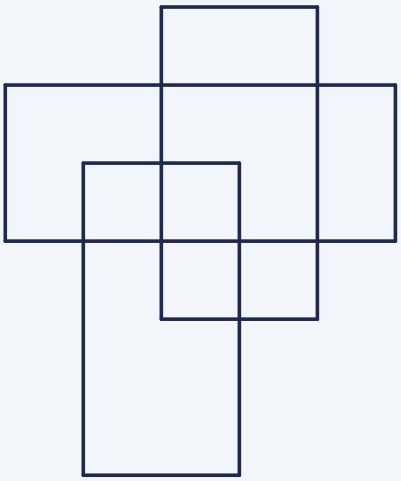

6 + 6 + 2 + 3 + 2 = 19

A 17 B 18 **C 19** D 20

4 ▲ **Kaç üçgen var?**

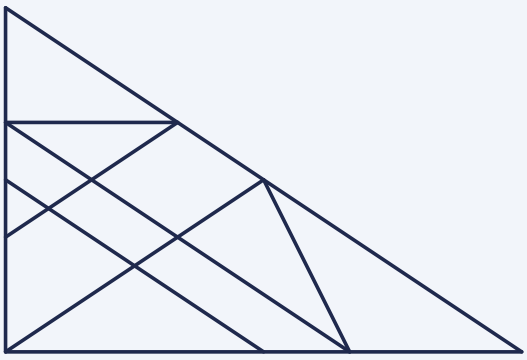

6 + 3 + 3 + 3 + 1 + 1 + 1 = 18

A 15 B 16 C 17 **D 18**

Gizli Şekiller

7. Sınıf | 2026-11-22 | Etkinlik

Şekiller çizimlerin içine gizlendi: bir şeklin bütün kenarları çizili çizgilerin üzerindeyse o şekil sayılır. Küçük şekiller birleşip büyüklerini oluşturur; her boyuttakini ara. Cevabının harfini yuvarlak içine al.

Sırayla çalış: tek parçalı, sonra 2 parçalı, sonra 3 parçalı şekiller. Bir şekli asla iki kez sayma.

1 Kaç dikdörtgen var? Kareler de sayılır.

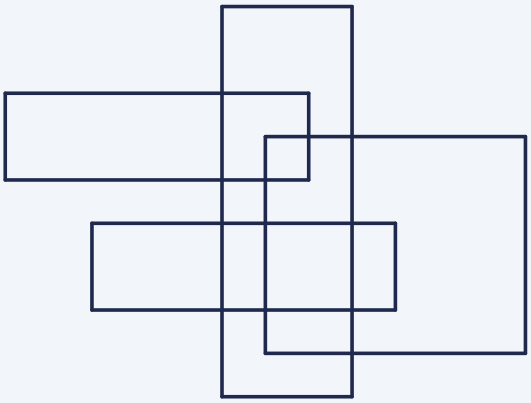

A 26 B 27 C 28 D 29

2 Kaç üçgen var?

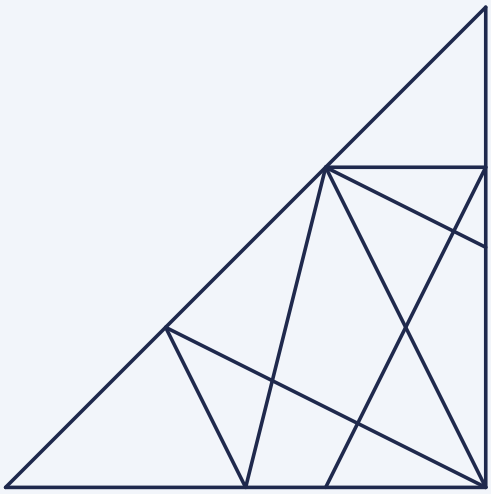

A 30 B 31 C 33 D 34

3 Kaç dikdörtgen var? Kareler de sayılır.

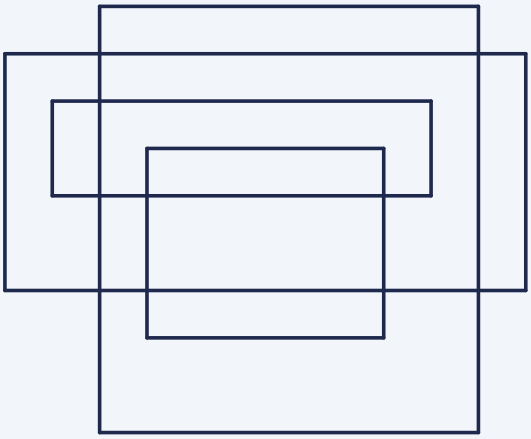

A 19 B 20 C 21 D 22

4 Kaç üçgen var?

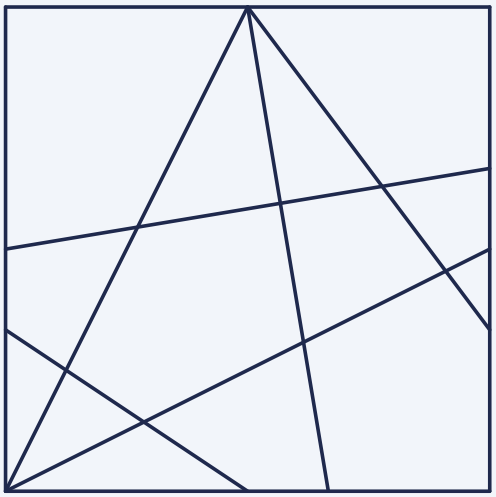

A 18 B 19 C 20 D 21

Gizli Şekiller

7. Sınıf | 2026-11-22 | Cevap anahtarı

Halka doğru cevabı gösterir. Turuncu satır önce tek parçalı, sonra 2, 3 ve daha çok parçalı şekilleri toplar.

1 Kaç dikdörtgen var? Kareler de sayılır.

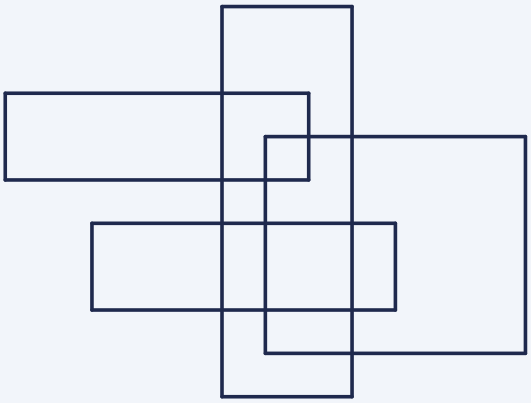

8 + 9 + 4 + 3 + 1 + 1 + 1 + 1 = 28

A 26 B 27 **C 28** D 29

2 Kaç üçgen var?

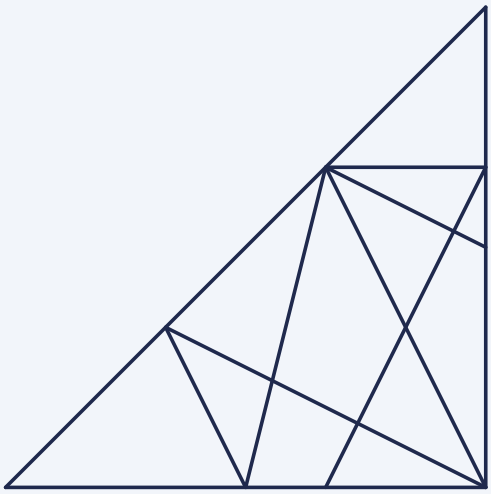

9 + 8 + 5 + 4 + 1 + 1 + 1 + 1 = 30

A 30 B 31 C 33 D 34

3 Kaç dikdörtgen var? Kareler de sayılır.

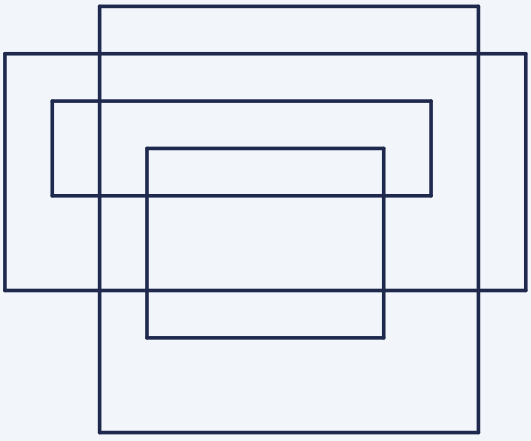

7 + 6 + 2 + 1 + 2 + 2 + 2 = 22

A 19 B 20 C 21 **D 22**

4 Kaç üçgen var?

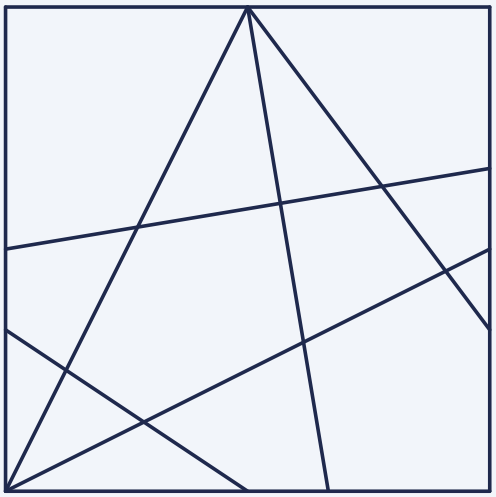

6 + 7 + 4 + 1 + 2 = 20

A 18 B 19 **C 20** D 21

Gizli Şekiller

8. Sınıf | 2026-11-22 | Etkinlik

Şekiller çizimlerin içine gizlendi: bir şeklin bütün kenarları çizili çizgilerin üzerindeyse o şekil sayılır. Küçük şekiller birleşip büyüklerini oluşturur; her boyuttakini ara. Cevabının harfini yuvarlak içine al.

Çok çizgi buluşuyor. Şekilleri parça sayısına göre sırala; hiçbirini atlama, iki kez sayma.

1 ▬ **Kaç dikdörtgen var? Kareler de sayılır.**

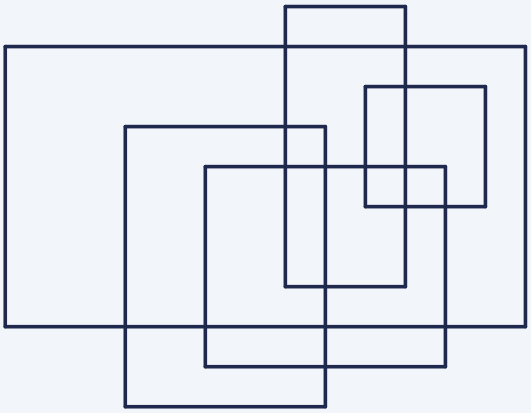

A 30 **B** 31 **C** 32 **D** 33

2 ▲ **Kaç üçgen var?**

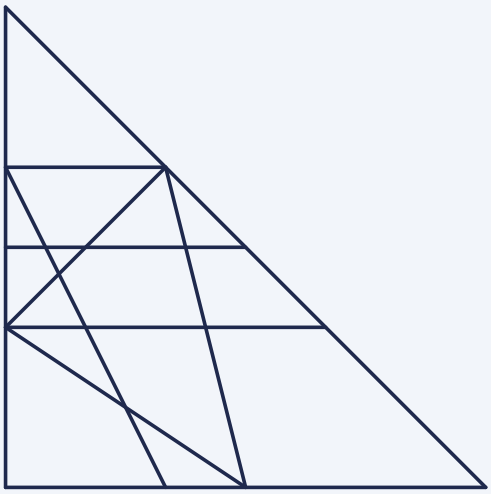

A 27 **B** 28 **C** 29 **D** 32

3 ▬ **Kaç dikdörtgen var? Kareler de sayılır.**

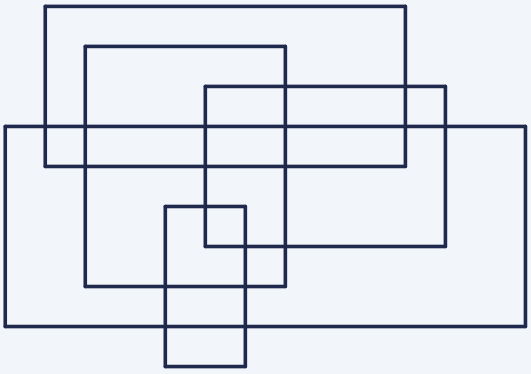

A 41 **B** 42 **C** 43 **D** 46

4 ▲ **Kaç üçgen var?**

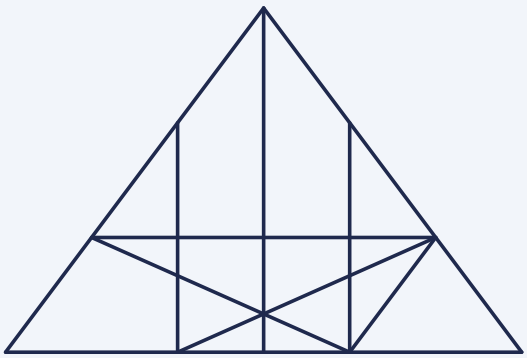

A 37 **B** 38 **C** 40 **D** 41

Gizli Şekiller

8. Sınıf | 2026-11-22 | Cevap anahtarı

Halka doğru cevabı gösterir. Turuncu satır önce tek parçalı, sonra 2, 3 ve daha çok parçalı şekilleri toplar.

1 Kaç dikdörtgen var? Kareler de sayılır.

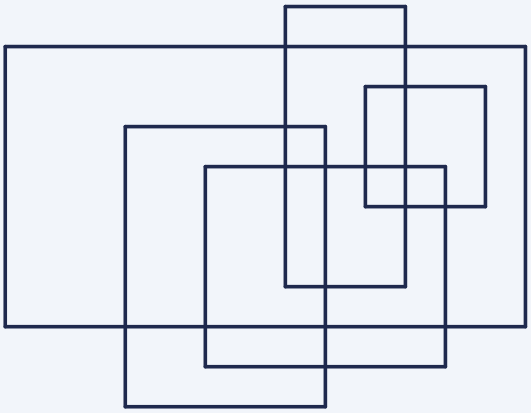

8 + 8 + 3 + 4 + 1 + 3 + 1 + 1 + 1 = 30

A 30 B 31 C 32 D 33

2 Kaç üçgen var?

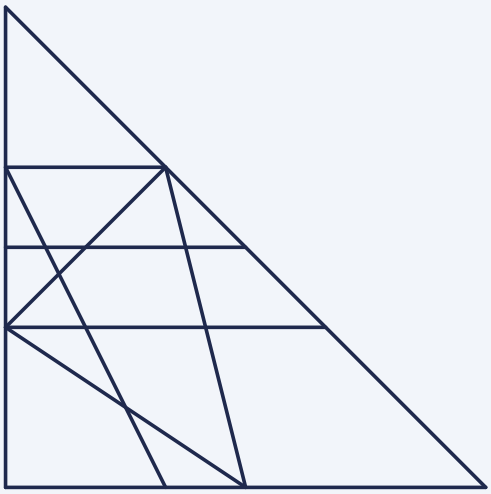

8 + 8 + 3 + 2 + 5 + 1 + 1 = 28

A 27 **B 28** C 29 D 32

3 Kaç dikdörtgen var? Kareler de sayılır.

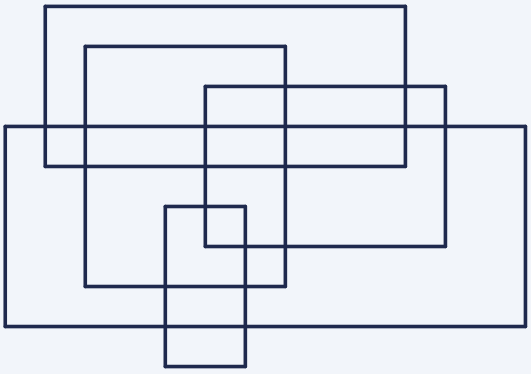

11 + 12 + 5 + 7 + 2 + 1 + 2 + 1 + 1 = 42

A 41 **B 42** C 43 D 46

4 Kaç üçgen var?

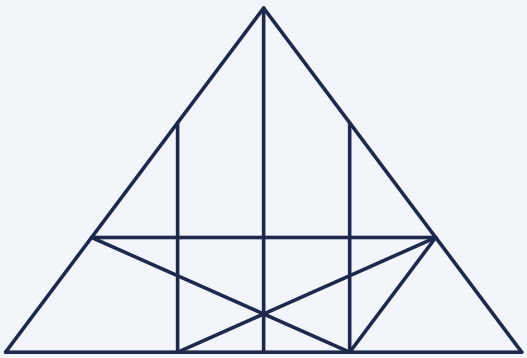

10 + 9 + 4 + 9 + 1 + 1 + 1 + 1 + 1 = 37

A 37 B 38 C 40 D 41